2016年事业单位《职业能力倾向测验》模拟题

第一部分　常识判断

（共20题，参考时限15分钟）

根据题目要求，在四个选项中选出一个最恰当的答案。

请开始答题：

1. 下列哪项不属于中央银行一般采取的紧缩性货币政策工具？（　）

A. 出售政府债券　　B. 提高贴现率和再贴现率

C. 提高商业银行的法定准备金　　C. 降低利率

2.中国特色社会主义，从理论和实践结合上系统回答了在中国这样人口多底子薄的东方大国(　　)这个根本问题。

A. 建设什么样的党、怎样建设党

B. 建设什么样的社会主义、怎样建设社会主义

C. 如何进行改革开放，实现中华民族的伟大复兴

D. 如何搞好经济建设，实现社会主义现代化

3.毛泽东第一次从理论上系统分析和论证了中国红色政权发生、发展的原因和条件的著作是：

A.《中国的红色政权为什么能够存在？》

B.《井冈山的斗争》

C.《星星之火，可以燎原》

D.《反对本本主义》

4. 中国农村扶贫开发纲要指出：坚持开发式扶贫方针，实行扶贫开发和农村最低生活保障制度有效衔接。把(　)作为脱贫致富的主要途径，鼓励和帮助有劳动能力的扶贫对象通过自身努力摆脱贫困。

A. 社会保障　　B. 扶贫开发　　C. 稳定就业　　D 专项扶贫

5.三氯生属低毒高效杀菌剂，广泛用于牙膏、沐浴露、香皂等清洁用品。根据研究，三氯生会和自来水中的氯发生反应，产生挥发性物质（　），它是一种强心脏血管抑制剂，对肝脏、肾脏也有毒性，可能造成肝脏肿大和坏死。

A. 三氯甲烷　　B. 三氯乙烯　　C. 三氯化铁　　D. 三氯乙酸

6.运动中扭伤后可采取的正确措施是：

A. 立即用冰袋冷敷，以防止毛细血管破裂后充血

B. 立即用热水袋热敷，以促进血液循环，加快痊愈

C. 立即用手揉捏受伤处，以散解淤血，防治肿胀

D. 不做任何处理，等待其自然恢复

7.节气起源于我国黄河流域，将全年分为二十四等分。以下关于二十四节气的说法正确的是(　　)。

A. 小暑是指进入一年中的酷暑季节，到达最热时期

B. 立春位居二十四节气之首，是春季的开始，开始降雨

C. 春分时各地昼夜等长，其后北半球进入昼短夜长季节

D. 秋分时各地昼夜等长，此后北半球进入昼短夜长的季节

8.下列诗句，没有反映平面镜成像原理的是(　　)。

A. 喜鹊飞来枝头闹，水中倒影依稀明

B. 飞流直下三千尺，疑是银河落九天

C. 野旷天低树，江清月近人

D. 掬水月在手，弄花香满衣

9.在下列何种情形中，乙构成不当得利？

A. 甲欠乙 500 元，丙在甲不知情的情况下自愿代为偿还

B. 甲大学新建校区，当地居民乙的房屋大幅升值

C. 甲以拾得的 100 元还了欠乙的债务

D. 甲雇人耕田，雇工误耕了乙的数亩待耕之田

10.下列说法不正确的是(　　)。

A. 转变政府职能的关键是政企分开

B. 经济全球化是生产社会化发展睏客观趋势

C. 能够最大限度地吸收社社会闲散资金的有效形式是零存整取

D. 市场经济在本质上是一种竞争型经济

11.以下科技常识正确的是：

A. 原子弹爆炸是核能聚变的反应过程

B. 使用甲醇含量高的建材进行家庭装修，容易导致室内环境污染

C.“钛”因为耐高温，比铝还轻，被称为“太空金属”

D. 手机刚接通时的电子辐射最强

12.我国主要能源可以分为一次能源和二次能源，也可以分为可再生能源和不可再生能源，下列既属于一次能源又属于可再生能源的是(　　)

A. 煤炭　　B. 沼气　　C. 太阳能　　D. 水煤气

13.下列文学作品，属于唐传奇的是(　　)

A.《洛阳伽蓝记》　　B.《南柯记》　　C.《西厢记》　　D.《离魂记》

14.对联是我国的传统文化艺术形式．又由于对时节的重视．在逢年过节之时张贴对联成为中华民族的一大风俗习惯。：。以下是我国几个传统节日的对联，题中描述的节日对应错误的(　　)。

A. 灯火交辉元夜里；笙歌簇拥月明中——中秋节

B. 豕岁又是丰收，高高兴兴送旧岁；子年更为繁荣，欢欢喜喜迎新年——春节

C. 何处题糕酬锦句，有人送酒对黄花——重阳节

D. 春色已浓，蜡屐痴向芳草印：亲情不减．心香敬于祖坟燃——清明节

15.富强、民主，是近代以来中国的两大主题。20 世纪以来中国经历了三次历史性的巨变，把富强和民主变成了生动的现实。这三次巨变是(　　)。

①辛亥革命　　②新中国的成立　　③改革开放　　④三大改造

A. ①②④　　B. ②③④　　C. ①③④　　D. ①②③

16.我国地形特点多样，有著名的四大盆地，其中被称为“聚宝盆”的是：

A. 准格尔盆地　　B. 塔里木盆地　　C. 四川盆地　　D. 柴达木盆地

17.下列关于疾病的传播途径和预防措施说法错误的是(　)

A. 乙型肝炎、甲型肝炎、百日咳、狂犬病等传染病可以通过接种疫苗来预防

B. 麻疹、非典、人禽流感和甲型 HIN1 流感等疾病可以通过呼吸道传播

C. 疟疾、流行性乙型脑炎（乙脑）、登革热、艾滋病等可以通过蚊虫叮咬传播

D. 细菌性痢疾、伤寒、霍乱、甲肝等可以通过消化道传播

18.随着人们生活水平的不断提高，越来越多的人开始外出旅游。如果在户外无定位的专门仪器，可借助地物来判定方向。下列是判断方位的方法，其中描述不正确的是(　　)。

A. 独立的大树通常南面枝叶茂盛，树皮光滑；北面树叶稀疏，树皮粗糙

B. 森林中空地的北部边缘，青草较稀疏

C. 树桩断面的年轮纹，一般是南面间隔大，北面间隔小

D. 在我国北方草原、沙漠地区附近常形成许多雪龙、沙龙，其头部大尾部小，头部所指的方向是西北

19.刘军参加公务员录用考试被某机关录用，工作一年后因经常违反工作纪律被记大过，刘军不服，他可以采取的正确做法是：

A. 向人民政府申请行政复议　　B. 向人民法院提起行政诉讼

C. 向公务员主管部门提出申诉　　D. 向人事争议仲裁委员会申请仲裁

20.我国长期以来形成了依赖投资扩张的增长方式。解决投资扩张问题，可以采取的措施是：

A. 增加财政支出　　B. 增加货币供应量

C. 提高贷款利率　　D. 增加国债规模

第二部分　言语理解与表达

（共 35 题，参考时限 35 分钟）

本部分包括表达与理解两方面的内容。请根据题目要求，在四个选项中选出一个最恰当的答案。

请开始答题：

21. 只要你愿意细读科学背后的资料——交织着何等复杂的运气，积累了多少人的心血。那么你便自然而然地感到，在这沉甸甸的血泪交织的深厚历史面前，仅以诺奖来评判，

是多么_____的心态，真正的贡献不会因诺奖的有无而被_____。

填入划横线部分最恰当的一项是：

A．浅薄　埋没　　B．狭隘　抹杀

C．浮浅　淡忘　　D．偏颇　湮没

22. 空间信息技术以其独特的工作原理与方式在文化遗产的保护和恢复中发挥着作用，日益成为遗产_____与保护中_____的技术支撑，在遗产的遥感与探测、定位、测量、展示、分析、综合和复原等各个领域都可以得到有效应用。

填入划横线部分最恰当的一项是：

A．监测　不可或缺　　B．发现　至关重要

C．利用　举足轻重　　D．开发　必不可少

23. 细节决定差异。但是，过早地_____于细节，会使你迷失在不重要的事物中，所以首先要抓住基础，_____细节。

填入划横线部分最恰当的一项是：

A．集中　发现　　B．致力　考虑　　C．沉溺　摒弃　　D．纠结　忽略

24. 中国文化面向世界的出发点不是单方面地向世界_____中国文化，更不是只着眼于宣扬中国“实力”。　我们最大的利益就是与世界文化多元_____，参与到正在形成的新的世界多元文化的格局中来，探究中国文化作为重要的一员，如何参与解决世界难题，如何反对单边统治，抵制精神殖民，开创新的精神世界。

填入划横线部分最恰当的一项是：

A．灌输　共生　　B．传播　互补　　C．阐释　竞争　　D．渗透　发展

25.当讲述自己幼年读书的时光时，作者_____的叙事，使人有如临其境之感，好像也回到了童年读书时代，并从中受到了强烈的_____。

填入划横线部分最恰当的一项是：

A．惟妙惟肖　震撼　　B．娓娓动听　感染

C．活泼俏皮　触动　　D．精辟深刻　感动

26. 16 世纪中后期的荷兰和德国，郁金香成了富翁们的宠物，很多著名学者都热衷于收藏郁金香。甚至经济情况一般的人也开始_____，看谁拥有更多的珍奇品种，谁肯出更高的价钱买花。从贵族到扫烟囱的人，从自耕农到仆人，整个国家的人都对郁金香球茎____，“就像围着蜜罐的苍蝇”。

填入划横线部分最恰当的一项是：

A．攀比　趋之若鹜　　B．关注　营营逐逐

C．追求　爱不释手　　D．炫耀　情有独钟

27.如果仅仅止于对各地风味美食的推介，《舌尖上的中国》或许与各类平庸的美食节目并无二致，顶多可以博得一个“纪录片版中国美食大全”的赞誉。所幸的是，在那些色香味俱全的美食_____之下，《舌尖上的中国》还以一种巧妙的叙事手法，_____地展现了中

国的美食文化。

填入划横线部分最恰当的一项是：

A．掩映　绘声绘色　　B．辉映　活灵活现

C．映衬　精雕细刻　　D．烘托　细致入微

28.当我们在谈论创意的时候，大多会认为这没有什么规律可循，或者说，创意应该是_____。的。我们会说：如果给创意制定一个框架的话，可能会束缚创意，让创意变成_____的工匠活。

填入划横线部分最恰当的一项是：

A．天马行空　按部就班　　B．稍纵即逝　循规蹈矩

C．自由自在　循序渐进　　D．标新立异　熟能生巧

29. “知识分子”通常被视为_____而非专家，他们特别偏好那些源自中间领域的思想范畴，也因此，这批人创意无穷、戏谑嘲讽、心思敏锐、兴趣广泛，且多半具备某种_____、不切实际的人格特质。

依次填入画横线部分最恰当的一项是（　）

A．通才　天马行空　　B．天才　龙飞凤舞

C．学者　无拘无束　　D．博士　挥洒自如

30.最高法院的这个批复，在中国宪政框架中表明了自己的基本_____：宪法上的基本权利受司法保护，遇到侵害时法院应_____司法救济；宪法条款可以作为法院审判的直接依据。

依次填入画横线部分最恰当的一项是（　　）

A．观点　支持　　B．态度　授予

C．立场　给予　　D．原则　提供

31.如果猫狗坚持将对方视为敌人，整日里你死我活地_____，自然无心提防老鼠和小偷，最终也可能因为_____而被主人赶出家门。猫狗要想成为主人家庭的一分子，就必须学会和平相处，先看到对方的优点，并懂得欣赏和学习。

依次填入画横线部分最恰当的一项是（　　）。

A．明争暗斗　一无是处　　B．争风吃醋　无所事事

C．尔虞我诈　无所不为　　D．钩心斗角　无所作为

32.除了聆听从人的嘴巴里发出的声音，我还聆听了大自然的声音，譬如洪水泛滥的声音，植物生长的声音，动物鸣叫的声音……在动物鸣叫的声音里，最让我难忘的是成千上万只青蛙聚集在一起鸣叫的声音，那是真正的大合唱，声音洪亮，_____，青蛙绿色的脊背和腮边时收时缩的气囊，把水面都遮没了。那情景让人_____，浮想联翩。

依次填入画横线部分最恰当的一项是（　　）。

A．振聋发聩　毛骨悚然　　B．响彻云霄　噤若寒蝉

C．震耳欲聋　不寒而栗　　D．沸反盈天　心惊肉跳

33.近年来中国时尚产业发展势头迅猛，以化妆品和服装为代表的中国时尚产品_____在国内市场上_____牢固地位，部分商品在国内的销量已经超越了同类海外品牌，后发的优势已经开始_____。

依次填入画横线部分最恰当的一项是（ ）。

A．逐渐　占据　显现　　B．骤然　掌握　呈现

C．渐渐　把握　出现　　D．逐步　占领　展现

34.一直到九十年代中期以前，我们都在试图重新寻找自己的精神家园。钱穆、钱钟书和陈寅恪的著作和传记成了畅销书。《顾准文集》、《顾准日记》_____于市场，这个中国“市场经济第一人”、坚持学术自由的孤独者形象_____了人们对于知识分子角色的期许。《傅雷家书》长达二十余年的畅销，成为了_____的“三字经”。浪漫骑士王小波横空出世，给这个日益保守的社会打开了一个叛逆的缺口。

填入划横线部分最恰当的一项是：

A．充斥　符合　金玉良言　　B．风靡　印证　字字珠玑

C．风行　满足　老少咸宜　　D．充塞　引发　家喻户晓

35.中国的“酒文化”古已有之，《世本》说：“仪狄始作酒醪，变五味，少康作秫酒”；《事物纪原》载：“杜康始作酒”。几千年来，“对酒当歌，人生几何”的感慨_____，“何以解忧？唯有杜康”的浩叹_____。

依次填入画横线部分最恰当的一项是（　）

A．绵延不断　不绝于耳　　B．络绎不绝　耳濡目染

C．纷至沓来　妙不可言　　D．经久不衰　没世不渝

36.关于中国崛起的预言，其实暗含了这样一个前提：西方将很难有效地通过解决贫富悬殊的方式，来解决债务危机和需求不足的问题。与此相反，中国则比世界上其他任何国家都有可能有效地解决收入不公，解决内需不足的难题。

下列表述符合文意的是（　）

A．世界上所有国家都需要解决收入不公和内需不足的难题

B．西方没有有效的方式可以解决债务危机和需求不足的问题

C．中国比世界上其他国家都急需解决收入不公、内需不足的难题

D．“中国崛起”的预言是有前提条件的

37.科学的实质虽没有充分发扬，科学的名义却已不胫而走，到处可以看到了。科学成了一个招牌，给市侩的商品宣传；甚至科学成了一个烟幕，给迷信欺骗作掩护。月饼的广告中用着“科学焙制”这样的字样，或者还不值得计较，但“科学圆光”、“科学扶乩”、“科学相面”这样的说去也一直是大吹大擂，那实在是不能不令人愤怒的。偶然看到一块“科学相面”的招牌，人们大概总是一笑置之的吧。但仔细一想，这实在不是可以一笑置之的事。在这情形下，其实是这块招牌，在嘲笑着你，它代表了整个的腐败落后的旧社会，在向你说：你们不是提倡科学么？你们不是反对迷信么？但是我倒偏偏不反对科学，而且我也可以就是

科学。——于是胜利者并不是你而是它。招牌依然高高挂着。骗人的勾当依然在继续进行着。科学没有打倒它，好像只是为了供给它一个更有利的骗人的名义。

最适合这段文字的标题是：

A.《科学不是招牌》　　B.《科学与愚昧》

C.《科学的真伪》　　D.《科学所遭遇的亵渎》

38.精读中一要抓住重点，宁精勿杂；二要深入钻研，务求精通。“书富如人海，百货皆有。人之精力，不能兼收尽取”，读书要善于选择取其精华不可滥读。选好了重点，确立了主攻方向，还需刻苦钻研。宋代哲学家陆九渊说：“学必无所蔽而后可”，意思是学习一定要到没有迷惑不解的地步才可以。精读就是为了达此地步。精读应占多少比例呢？胡绳曾说过：“在二亿字的书中，四分之一的书要精读。”在这个范畴内，经典著作和专业书籍应占有较大的比重。

这段文字意在强调(　　)

A. 精读要选好重点，确立主攻方向

B. 精读应该选择经典著作和专业书籍

C. 读书要善于取其精华，不可滥读

D. 精读要确立研习方向，能透彻理解书中之义

39.据相关新闻报道，泄露个人快递信息“来源于各地快递员”。在信息被泄露的情境下，强调快递人员素质，当然有其必要。以法律惩处违法出售公民信息者，对这种行为进行警示，理应成为替公民信息安全兜底的底线。但如今的问题，很显然已经不是要遏住个体徇私逐利的手那么简单，而是整个互联网电商、快递行业对公民个人信息安全的无视，已经到了视若空气的地步。如果互联网、快递行业连起码的个人信息保护制度也没有建立，贩卖个人信息缺乏起码的违法、违规成本，又怎么可能遏制住来势汹汹的信息泄露风险？

这段文字意在说明：

A. 互联网、快递行业对消费者个人信息的保护存在严重的缺漏

B. 亟需制定相关法律法规，提高侵犯公民信息安全的犯罪成本

C. 强调快递人员的素质，并不能从根本上解决个人快速信息泄露问题

D. 互联网电商、快递行业应建立个人信息保护机制，保障消费者信息安全

40.城市的道路是一个公共空间，当私车发展的时候，私车就把公共空间变为私有空间，这就涉及公共资源根本性质的变化。如果采取市场经济的方法，私人占有公共资源就要付费，这是行得通的，目前对私车的发展要从这个思路去改革。在伦敦和新加坡就实行“市中心收费制度”，私车进入市中心后要另外付费，实际上就是利用市场机制控制市中心交通流量的举措。

上述这段文字表达的主要意思是：

A. 私车的发展增大了城市道路的交通压力

B. 私车进入市中心收费可以有效控制市中心的交通流量

C．对私车占用公共资源进行收费是改善城市交通的必由之路

D．根据市场机制对占用公共资源的私车进行收费是合理的

41.近日有政府出台《见义勇为奖励和保护条例》，明确规定见义勇为受益人应对恩人答谢、予以慰藉，给路见不平者吃了一颗“定心丸”。实则，在一个充满信任且法制健全的社会中，“路见不平无人相助”和做好事被诬陷都不应成为常态。做好事被反咬一口，既失了私德，更伤了公德。“一方有难八方支援”并非一句口号，需要建立在大家互相信任的基础之上，只有当人人都以真诚相待，都怀感恩之心，在伸出援手的时候知道“好人有好报”，而不会担心对方以怨报德时，助人为乐才能真正成为社会共识。

这段文字主要说明的是：

A．有健全的法律制度作保障，社会和谐、美好才不至沦为空谈

B.《见义勇为奖励和保护条例》的出台非常必要，应加以推广

C．弘扬助人为乐的传统美德，需要每个公民的共同努力

D．常怀感恩之心，建立信任桥梁，才能让助人为乐真正成为社会共识

42.社区商业是城市商业的基础，是满足居民综合消费的重要载体，加快发展社区商业，是提升城市商业现代化和综合竞争力的迫切要求。因此，发展和完善商业社区，对现有社区商业点进行系统性、科学性和高效性的整合，构建我国现代社区商业网络，是满足社区居民日常生活需求，提高居民生活质量的重要举措。

这段话的主旨：

A．构建我国现代社区商业网络，是满足社区居民日常生活需求的需要

B．加快发展我国社区商业，是提升城市商业现代化和综合竞争力的迫切要求

C．社区商业是满足居民综合消费的重要载体

D．社区商业是城市商业的基础

43.谁能在石头上轻松地睡觉？两种人：找到适合的石头的人或让自己适应某一块石头的人。人选石头，石头也选人。有跟石头较劲的，时间久了竟也在上面睡出了人形，即合用了；也有随遇而安的，这块石头不合用，再找下一块便是，并无唯一法门。关键是，当一个人决定离开床那熟悉的舒适，去石头上睡觉时，他就已经摆脱了某种惰性，而带来许多种可能。有一天，一块顽石上也会留下他的温度。艺术家的心灵之旅，其实就是这么一回事！

这段文字主要说明了(　　)。

A．只有艺术家才能轻松地在石头上睡觉，因为艺术家的心灵之旅需要这样的训练

B．艺术家离开床去石头上睡觉，可以使艺术家摆脱惰性，获得许多种可能

C．一个人，无论他使用哪种方法，当他能够在石头上轻松地睡觉的时候，他已经摆脱了惰性

D．艺术家的心灵之旅其实就是能摆脱惰性、在石头上睡觉的过程，这为艺术家的创作带来无限可能

44.慈善是一种高尚的行为，无国界之隔、人种之别、肤色之分。慈善的本质是爱，是

诚，是真心实意地帮助别人，不带任何功利色彩。所以，慈善的表现方式理当是沉默的、悄然的、无声的，使别人得到了帮助，而且还不使别人的自尊和名誉受到伤害。有些“献爱心”活动，让捐助的影视明星在电视上与接受帮助的失学儿童面对面，又是拥抱，又是流泪，又是发言，竭力煽情；这些与慈善精神相去甚远，且显得浅薄可笑。慈善如阳光普照人间，温暖人心，而阳光，恰恰是无声的。

最能准确地概括上面文字内容的是：

A．慈善如阳光普照　　B．慈善贵在沉默

C．慈善的本质是爱　　D．慈善是高尚的行为

45.伊索寓言中有一则故事，墙壁被钉子们猛烈地钉坏了，便大声叫道：“你为何要钉坏我，我与你无冤无仇，什么坏事我都没做。”钉子辩解道：“这一切都不是我的责任，你应该去责怪那个狠狠敲打我的人。”

这个寓言意在告诉人们(　　)

A．责任要归之于罪魁祸首

B．钉子负有不可推卸的连带责任.

C．眼见为实，耳听为虚

D．射人先射马，擒贼先擒王

46.真正的燕尾服不是一般裁缝就能做的，而是要经过相当严格的资格认定。这种资格一般也就属于那些有数的老字号，在保持历史悠久的手工艺的同时，价格当然不菲，动辄数万美金。在国王加冕、王子大婚等超重量级场合，不用说，当然需要此等行头，老古董此时不闪光，更待何时？但往往会有囊中羞涩的外交官们接到请柬推辞不去的，原因也就不言而喻了。

这段文字意在说明燕尾服：

A．穿着场合隆重　　B．制作工艺考究

C．价格相当昂贵　　D．款式有些过时

47.①但这类东西早已腐烂殆尽

②因此，尽管制造这些工具的人的骨头早已荡然无存

③他们也可能用过木头和兽皮

④幸运的是，远古人用石头制作了工具，特别是用燧石

⑤因为燧石较之其他石头更容易成形

⑥但远古时代的石头工具却保存了下来

⑦石头是不会腐烂的

将以上 7 个句子重新排列，语序正确的是(　　)

A．④⑤③①⑦②⑥　　B．⑦③①④②⑥⑤

C．④②⑥⑤⑦③①　　D．⑦②③①④⑤⑥

48.在微观世界中，中微子一直是一个无所不在、而又不可捉摸的过客。中微子产生的

途径有很多，如恒星内部的核反应，超新星的爆发，宇宙射线与地球大气层刚撞击，以至于地球岩石等各种物质的衰变等。尽管可能是构成我们所在宇宙中最常见的粒子之一，但由于它穿透力极强，而且几乎不与其他物质发生相互作用，因此它是基本粒子中人类所知最少的一种。

对“中微子”的理解不准确的一项是：

A．中微子在微观世界无所不在

B．恒星内部的核反应是中微子的产生途径之一

C．中微子是构成我们所在宇宙中最常见的粒子

D．人类对中微子知之甚少

49.如果要对德国邮政的成绩追根溯源，则可以归因于 1995 年开始的市场化探索。在此之前，德国邮政以其人浮于事、效率低下的服务著称。其后，改成了国有控股公司，并于 2000 年上市，以改善公司治理结构。一方面，在五六年间，德国邮政的专营范围一直在缩减，因而面对着越来越激烈的市场竞争；另一方面，尽管如此，就在这段期间，德国邮政成为营收超过 430 亿欧元的全球邮政业领头羊。

德国邮政作风转变、效益提升的根本原因是(　　)

A．改善公司治理结构　　B．市场化改革

C．股票上市　　D．缩减专营范围缩减专营范围

50.老年人在连结人类代际、维系文明社会中扮演着重要角色，并为社会的长期稳定、繁荣发展奠定坚实基础。由于科技发展与进步，老年人越来越被视为与技术发达的现代社会脱节。但是，大量证据表明，如果将老龄化视为经济发展的机遇，全球范围内不断增长的老年人数量完全可能成为现代社会的福音，而不是负担。

作者接下来最有可能着重介绍的是：

A．帮助老年人更好地融人现代社会的措施

B．老年人可能成为现代社会福音的理由

C．老年人在社会发展中具有的重要作用

D．应对全球范围内老龄化社会的一些建议

51. 20 世纪对于中国人民来说，是一个革命的世纪。_____，影响着人们的思维形态和思维方式。尤其是带着满身硝烟的人们从事和平建设事业后，文化心理上仍然保留着战争时期的痕迹。

填入画横线部分最恰当的一句是(　　)

A．任何一个历史时期都会带来人类文化心理上的进步

B．斗争思维深深地植入人们的意识结构之中

C．人们的文化心理反映着时代的主题

D．持久的斗争使人们在战争时期渴望和平

52.蒙台梭利把 0~6 岁称为“精神胚胎期”，认为这段时间是人的敏感期——离自己天性

最近的时刻。但“精神胚胎期”只是对童年蕴藏着巨大力量和可能性的模糊认识。即便是这个最著名的儿童心理研究者，也承认对童年可能孕育的幸福和罪恶所知甚少。因此，当满怀爱意但缺乏耐心和观察的父母们讨论让孩子的童年快乐，守护孩子的天性时，_____。

填入划横线部分最恰当的一句是：

A．难免走上一条南辕北辙的道路

B．根本不明白怎样才可以使孩子们更快乐

C．总是觉得对这片私密莫测的领域所知甚少

D．大多数时候是在说一些力不从心的口号

53.富兰克林被称为美国之父。在谈起成功之道时，他说这一切源于一次拜访。在他年轻的时候，一位老前辈请他到一座低矮的小茅屋中见面。富兰克林来了，他挺起胸膛，大步流星，一进门，“砰”的一声、额头重重地撞在门框上，顿时肿了起来，疼得他哭笑不得。老前辈看到他这副样子，笑了笑说：“很疼吧？你知道吗？这是你今天最大的收获。一个人要想洞察世事，练达人情，就必须时刻记住低头。”

与这段文字主旨无关的名言是(　　)

A. 成功的第一个条件是真正的虚心

B. 当我们大为谦卑的时候，便是我们最近于伟大的时候

C. 自己打败自己是最可悲的失败

D. 自负对任何艺术是一种毁灭，骄傲是可怕的不幸

54.毋庸置疑，对身份、地位的渴望，同人类的其他欲望一样，都具有积极的作用：激发潜能，使人力臻完美，阻止离经叛道的有害行径，并增强由社会共同价值产生的凝聚力。如同那些事业成功的失眠症患者历来所强调的那样，唯焦虑者方能成功。但承认焦虑的价值，并不妨碍我们同时对它进行质疑。我们渴望得到地位和财富，但一旦如愿以偿，我们的生活也许会变得更加糟糕。我们的很多欲望总是与自己真正的需求毫无关系。

作者通过这段文字想要传递给我们的信息是(　　)

A. 人生中的很多欲望都是具有积极作用的

B. 要用辩证的、发展的眼光来看待“焦虑”

C. 很多时候，我们所得到的并非是自己所渴望的

D. 做好自己，不要去过分关注他人对我们的看法

55.对于依赖消费者选择而生存于市场中的企业来说，在新的消费时代中，应当更加重视企业战略调整，履行企业社会责任，塑造并维护企业声誉，适应新的市场选择需求。企业声誉产生于企业的良好形象及顾客对企业的好感，这种好感可能起源于企业所拥有的优越的地理位置、良好的口碑、有利的商业地位、良好的劳资关系、独占特权和管理有方等，即_

填入画横线部分最恰当的一句是(　　)

A. 企业声誉可以增强其产品的市场号召力

B. 企业声誉主要受到消费者情感导向的左右

C．只有赢得顾客，才能占领节市场

D．声誉受损越大，企业受到的惩罚也就越大

第三部分　判断推理

（共 40 题，参考时限 40 分钟）

一、图形推理。根据题目要求，在四个选项中选出一个最恰当的答案。

56. 从所给的四个选项中，选择最合适的一个填入问号处，使之呈现一定的规律性：

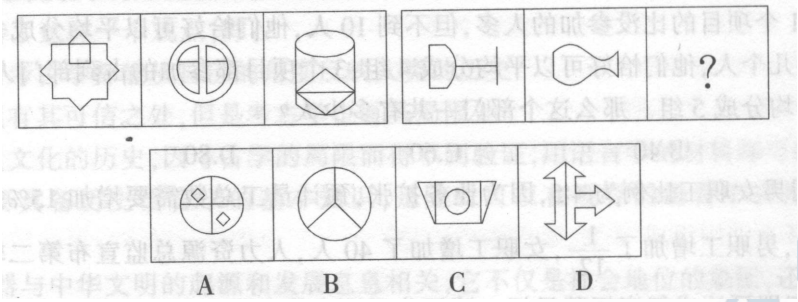

57. 从所给的四个选项中，选择最合适的一个填入问号处，使之呈现一定的规律性：

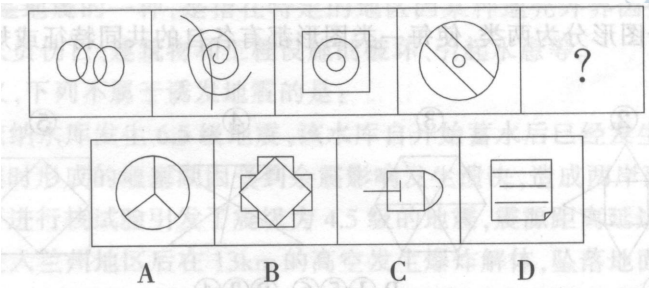

58. 左边给定的是纸盒的外表面，下面哪一项能由它折叠而成？

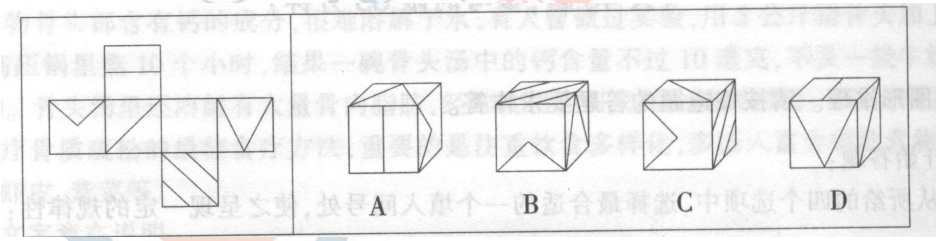

59. 从所给的四个选项中，选择最合适的一个填入问号处，使之呈现一定的规律性：

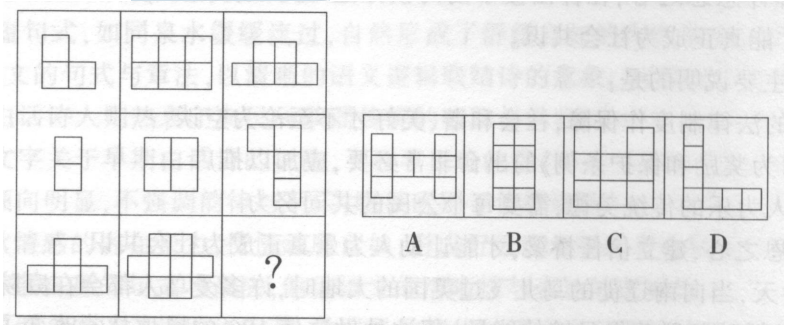

60.从所给的四个选项中，选择最合适的一个填入问号处，使之呈现一定的规律性：

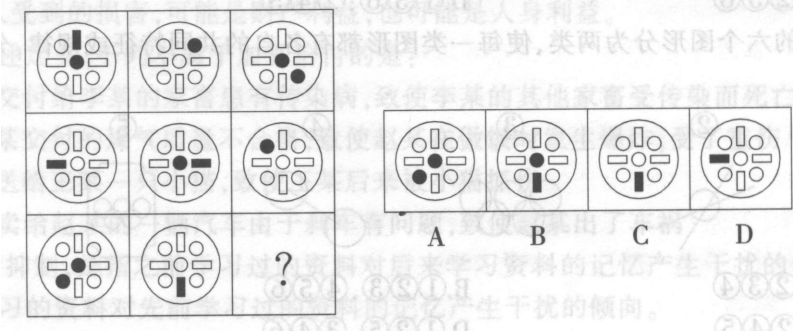

二、定义判断。每道题先给出一个定义，然后列出四种情况，要求你严格依据定义，从中选出一个最符合或最不符合该定义的答案。注意：假设这个定义是正确的，不容置疑的。

请开始答题：

61．操作性定义，又称操作定义，是根据可观察、可测量、可操作的特征来界定变量含义的方法。即从具体的行为、特征、指标上对变量的操作进行描述，将抽象的概念转换成可观测、可检验的项目。

根据上述定义，下列属于操作性定义的是：

A．光的折射是指光由一种介质斜射入另一种介质或在同一种不均匀介质中传播时，方向发生偏折的现象

B．E-mail 营销有三个基本要素：基于用户许可、通过电子邮件传递信息、信息对用户是有价值的。三个要素缺少一个，都不能称之为有效的 E-mail 营销

C．文化集丛是指功能上互相整合的一组文化特质，它存在于一定的时空之中并作为一个文化单位发挥功用

D．城市化是人类生产与生活方式由农村型向城市型转化的历史过程，表现为乡村人口向城市人口转化以及城市不断发展和完善的过程

62.高语境传播指的是在传播时绝大部分信息或存于物质语境中，或内化在个人身上，极少存在于编码清晰的被传递的讯息中。高语境传播的特征是：在沟通过程中，只有很少的信息是经过编码后被清晰传递出来的，人们在交流过程中重视“语境”而非“内容”，注重建立社会信任，高度评价关系和友谊，关系的维持比较长久。

根据上述定义，下列属于高语境传播的是：

A．小红和小丽是双胞胎姐妹，她们外貌完全相同，在高考时成绩居然也一样

B．刘刚和张洁是夫妻，由于长期共同生活而形成了许多默契，在交流中，往往一个情绪就知道对方的想法，比如一说去老地方看电影就知道对方心情不错

C．美国人在阅读时，习惯拥有具体全面描述的细节，当他们看到没有细节进一步描述支撑的短语时，会觉得这些表述不可信

D．到美国的中国留学生可能会获得很多以书面形式呈现的信息，如：留学生手册，各类指南，宿舍管理手册，关于不同类型签证，如何换或续签签证的印刷信息等等

63．鲁迅先生曾在《无声的中国》中写道：“中国人的性情总是喜欢调和、折中的，譬如你说，这屋子太暗，说在这里开一个天窗，大家一定是不允许的。但如果你主张拆掉屋顶，

他们就会来调和，愿意开天窗了。”这种先提出很大的要求来，接着提出较小、较少的要求，在心理学上被称为“拆屋效应”。

根据上述定义，下列不属于“拆屋效应”的一项是：

A．老师在布置作业的时候先给学生比平时多的题目，等学生有所反应的时候，再说可以选做里面的一些题目

B．书店里，萧红首先要求爸爸买一套价值近千元的诗集，爸爸不同意，转而要求买另外两本较便宜的书，最终如愿以偿

C．请各家家庭主妇在一份呼吁安全驾驶的请愿书上签名。两周后，问这些主妇能否在她们的前院立一块写着“谨慎驾驶”的告示牌。结果，先前签过名的55%以上都会同意，而没有签名的只有不足17%的接受这一要求

D．谈判桌上，为了使对方接受自己的500万的赔偿要求，小张在此之前先提出一个800万的赔偿数额，最终使其接受该要求

64．“无意失聪”：当人们集中精神做事时，会对外界一般的声音充耳不闻。之所以会这样，是因为大脑中的视觉细胞和听觉细胞会争夺有限的大脑空间。

根据上述定义，以下不属于“无意失聪”的是：

A．一家人兴致勃勃地聚在一起看电视，没人听到送餐快递按门铃的声音

B．公司开会时，参会人员的手机都调成了振动模式，有手机来电一般不易察觉

C．孩子们聚精会神地解答竞赛试题，不少人没有注意到交卷的铃声已经响起

D．小魏在公交车上用笔记本处理日常事务，没听到售票员报站声，以致于坐过站

65．碰瓷，原属北京方言，愿意指个别不法之徒在摊位上摆卖古董时，常常别有用心地把易碎裂的瓷器往路中央摆放，专等路人不小心碰坏，他们便可以借机讹诈。后泛指一些投机取巧，敲诈勒索的行为。

根据上述定义，以下行为不属于“碰瓷”的是（　）

A．李某在小狗跑过自己身旁时，假称被狗咬伤，然后捂着受伤的部位，以要打血清和狂犬疫苗为由，向狗主人索要医药费及精神补偿费

B．孙某在人行横道内用自行车故意碰撞机动车后摔倒，要求车主赔偿医药费及精神补偿费

C．张某在过马路时打电话，被酒驾司机的李某撞倒在地，手机也被摔得粉碎，他要求李某支付医药费、误工费，并赔偿手机

D．王奶奶路边摔倒，一名路过的骑车人将她扶起，王奶奶一口咬定是骑车人将她刮倒的，让对方赔偿医药费

66．登门槛效应，是指一个人一旦接受了他人的一个微不足道的要求，为了避免认知上的不协调，或想给他人以前后一致的印象，就有可能接受更大的要求。

根据上述定义，下列能够体现登门槛效应的是（　　）。

A．小明想让妈妈给自己买新玩具，于是他晚上主动帮妈妈洗碗，妈妈觉得小明最近很

听话，于是就答应了他买新玩具的要求

B. 化工厂新招聘了一批员工，车间主任老王先让他们熟悉环境，在旁边给老员工帮忙，过了一个月才让他们正式上机床，这批员工普遍感觉工作很容易上手

C.实验室里黑色小球和白色小球是混放的，老王过来找实验员小李要了 50 只白色小球，小李虽然觉得很累但还是给他拿了，过几天老王又来找他要 100 只黑色小球，小李又给他拿了

D. 妈妈想让小美养成每个月存 500 块钱的习惯，于是她要求小美每个月都存 800 块，于是虽然小美每月都觉得自己花钱少了，但其实她每月存的钱都多于 500 块

67.基因突变是指基因组 DNA 分子发生的突然的、可遗传的变异现象。从分子水平上看，基因突变是指基因在结构上发生碱基对组成或排列顺序的改变。基因虽然十分稳定，能在细胞分裂时精确地复制自己，但这种稳定性是相对的。在一定的条件下基因也可以从原来的存在形式突然改变成另一种新的存在形式，就是在一个位点上，突然出现了一个新基因，代替了原有基因，这个基因叫做突变基因。于是后代的表现中也就突然地出现祖先从未有的新性状。

根据上述定义，下列现象属于基因突变现象的是(　　)

A. 中国水稻研究某课题组，成功配制出抗除草剂直播水稻，这是一种新型水稻，可省工省时除尽稻田杂草，缺点是这种水稻作物的粮食不能够直接种植，需要新购种子

B. 花花的妈妈是双眼皮，爸爸是单眼皮，花花是双眼皮，花花生了个女儿也是双眼皮

C. 公马和母驴交配，生下的叫“驴骡”，骡个头大，具有驴的负重能力和抵抗能力，有马的灵活性和奔跑能力，是非常好的役畜，但是没有生育能力

D. 科学家将某种作物种子搭乘返回式卫星送到太空，搭载回来以后进行地面试种，将作物进行四代的种植选择后，获得了一个稳定的新品种，它具有以往品种没有的优势

68. 自我意识过剩是指对自我存在过分放大，要么总觉得别人在看自己，因为太在乎别人而限制了自己的言行；或是过分以自身认知干涉外界。也就是俗称的“太把自己当回事”。

以下各项不属于自我意识过剩的是(　　)

A. 小红很喜欢在微博上展示自己的生活，一旦有空就打开微博查看别人对她的评论

B. 小李总是很注重自己的仪表，因为同事说他的一件衬衫有点老气，他再也没穿过这件衬衫

C. 某公司部门经理热爱工作，认为加班是理所当然，于是他要求他的员工不能早于他离开公司

D. 某公司老板因为小时候考试经常不及格却也取得了成功，便对家乡的人说：读书无用，还是把孩子送出去打工有前途

69. 促销就是营销者向消费者传递有关本企业及产品的各种信息，说服或吸引消费者购买其产品，以达到扩大销售量的目的。赠送促销，即通过向消费者赠送小包装的新产品或其他便宜的商品，来介绍某种产品的性能、特点、功效，以达到促进销售的目的。

根据上述定义，下列不属于赠送促销的是：

A. 花语洗发水产品在 1 月举办品牌十周年庆祝活动，凡购买 600ml 花语洗发水消费者均可再获得 200ml 花语洗发水一瓶

B. 某糖果公司在百货商场举办活动，所有顾客均可免费得到一颗新开发的榴莲口味软糖

C. 某大型 IT 企业为向消费者介绍其新操作系统产品，在电脑商场里赠送小饰品，每个饰品上都写着该操作系统的新功能

D. 某食品品牌为推动新产品的销售，随原有产品赠送新产品的试吃品，取得了良好的市场效果

70. 群体极化指的是群体成员中存在的某一种倾向性，通过群体相互影响而使结果得到加强并趋于极端化，从而偏离某种合理性的现象。群体极化通常存在两种情形，一种是使结果变得更为冒险甚至激进，称为冒险偏移；一种是使结果变得更加保守，称为谨慎偏移。根据上述定义，下列哪项中的现象不涉及群体极化？（　）

A. 一部略带瑕疵的电影在某网络论坛被批驳得一无是处

B. 经过表决，答辩委员会一致否决了某同学的博士论文答辩

C. 对某人的不良行为，大家均保持沉默，这使得他气焰更加嚣张

D. 足球比赛中甲队因犯规被判点球，甲队球迷表示极大不满，并纷纷向场内投掷杂物

三、类比推理。每道题先给出一组相关的词，要求你在备选答案中找出一组与之在逻辑关系上最为贴近、相似或匹配的词。

请开始答题：

71. 猕猴桃：火龙果

A. 金橘：青梅　　B. 水稻田：高粱地

C. 枯叶蝶：竹节虫　　D. 三叶草：八角

72. 茶馆：客人：茶

A. 电影院：观众：电影　　B. 法庭：法官：案件

C. 农民：耕种：庄稼　　D. 医院：病人：疾病

73. 阴晴圆缺：生死存亡

A. 喜怒哀乐：冷暖悲欢　　B. 墨守成规：开拓创新

C. 成败得失：风光无限　　D. 繁花似锦：百花争艳

74. 日出：日落

A. 开花：结果　　B. 上课：下课

C. 潮起：潮落　　D. 结婚：离婚

75. 元宵节：上元节

A. 清明节：冷节　　B. 七夕节：乞巧节

C．重阳节：踏青节　　D．寒食节：老人节

76．歌曲：演唱

A．企图：逃跑　　B．身份：证明

C．约束：法律　　D．执行：贯彻

77．斧头：劈：木柴

A．锤子：敲：钉子　　B．电视：看：通电

C．小刀：削：铅笔　　D．农民：种：田地

78．繁华：车水马龙

A．冷清：清风朗月　　B．憔悴：奄奄一息

C．温柔：柔肠寸断　　D．雀跃：兴高采烈

79．（ ）对于　淡泊　相当于　书中自有黄金屋　对于（　　）

A．童孙未解供耕织　博学　　B．西出阳关无故人　好学

C．采菊东篱下　功利　　D．三更灯火五更鸡　富贵

80．蜗居　对于　（　）　相当于　（　）　对于　不负重望

A．豪宅——众望所归　　B．潜居——大失所望

C．别墅——深孚众望　　D．游历——不孚众望

四、逻辑判断。每题给出一段陈述，这段陈述被假设是正确的，不容置疑的。要求你根据这段陈述，选择一个答案。注意：正确的答案应与所给的陈述相符合，不需要任何附加说明即可以从陈述中直接推出。

请开始答题：

81.要说服别人，我们就要让别人相信；要让别人相信，我们就必须让人觉得可靠；要让人觉得可靠，我们就要诚实。

由此可见：

A．诚实的人都是可靠的，能够让人相信

B．所有不能说服别人的人都是不诚实的

C．一个人只有诚实才能说服别人

D．只有相信别人才能让人觉得可靠

82.据《韩国先驱报》报道，韩国教育部 7 月 1 日公布了名为“智能教育”的项目计划，该计划着力于在 2015 年之前，将中小学所使用的全部教科书数字化，使教材内容可以呈现在计算机、互动黑板、平板电脑和智能电视机上。未来数年之内，传统的纸媒教材将有可能在韩国消失。对此，有关人士认为中国的传统出版业也前景堪忧。

下列各项如果为真，不能打消有关人士顾虑的是：

①电子教材在国内一些中小学校已开始试点

②中国的经济、文化、教育发展水平与韩国有相当大的差距

③随着教育数字化、无纸化的推进，传统纸媒阅读习惯的培养将愈加困难

④数字媒介在使用上更便捷、传播上更高效，复制上也更经济

⑤长久以来，无论在总量规模，还是利润比重上，教材出版始终占据了中国出版业绝对份额

A. ①②③　　B. ②③⑤　　C. ②③④⑤　　D. ①③④⑤

83.有些未受过大学教育的人成了优秀作家，而更多的优秀作家是受过大学教育的。优秀作家都是敏感而富有想象力的人，只有敏感而富有想象力的人才能写出打动人心的作品。

如果以上陈述为真，以下哪一项陈述一定为真？

A. 只有优秀作家才能写出打动人心的作品

B. 有些敏感而富有想象力的作家不是优秀作家

C. 能写出打动人心作品的作家都是优秀作家

D. 有些敏感而富有想象力的作家未受过大学教育

84.在 20 世纪 80 年代，流行乐把京剧彻底赶出了音乐舞台。证据来自那段时间青年人的行为。在一场表演中，青年人会热情地为流行乐鼓掌，但是当京剧开始的时候，他们就开始聊天，直到京剧结束了才又专心观看表演。

下面各项如果为真，哪项是对上述论证的反驳？

A. 京剧是我国的国粹，为我国做出了巨大的贡献

B. 京剧在 20 世纪 60 年代到 20 世纪 70 年代都非常地流行

C. 从 20 世纪 80 年代，流行乐不仅为青年人提供娱乐，而且也成为中国与世界接轨的一个交流手段

D. 尽管到 1982 年京剧不那么流行，但是从那时起，中老年人对京剧的爱好开始复苏

85. 白领办公室中时不时备着几罐碳酸饮料，但有些人担忧喝碳酸饮料会对骨骼健康造成隐患，主要原因是人体内过多的磷酸盐会阻碍人体对钙的吸收。

以下哪项如果为真，最不能减弱这些人的担心？

A. 研究表明，磷酸盐并不会对钙的吸收产生任何负面影响

B. 研究显示，对于大多数年龄段的人群而言，将钙的吸收与磷酸盐的摄入量联系起来是没有必要的

C. 碳酸饮料会刺激肠胃，增加胃酸，扰乱有益菌平衡

D. 饮料当中用于增强口感的磷酸盐只占人体吸收磷酸盐的极少量

86. 某网友发布了一条关于中美物价对比的微博：中国，吃一次肯德基 30 元，下馆子最少 100 元，买条 Levi’s400 元，买辆车最少 30000 元（夏利）；美国，吃一次肯德基 4 美元，下馆子 40 美元，买条 Levi’s20 美元，买辆车最多 30000 美元（宝马）。由此，该网友得出结论：中国的物价比美国高。

以下哪项如果为真，最能削弱题干结论？

A. 普通生活消费品，如果带有国外品牌，北京的确比纽约略贵

B. 该网友“晒”出的商品价格有些以偏概全，统计方法并不科学

C. 市内公共交通，比如公交、地铁的费用，纽约是北京的 10 倍左右

D. 中国境内商品税收与物流成本过高，同样商品的税收约是美国的 4 倍

87. 在出土文物中，把专供死者用的陪葬品叫做冥器。在出土的北宋瓷器中，有许多瓷枕。我们都有使用枕头的经验，瓷枕头非常硬，活人不好枕，所以北宋的瓷枕一定是专门给死者的冥器；再说，瓷枕埋葬在坟墓中不会腐烂。

如果以下陈述为真，哪一项最严重地削弱了上述论证？

A. 在陪葬品中，既有专供死者用的冥器，也有死者生前喜爱用的器具

B. 司马光在写《资治通鉴》期间，使用由圆木做成的硬枕

C. 冥器上从来不写教导性文字，有些出土的北宋瓷枕却有“未晚先投宿”、“无事早归”等教导性话语

D. 金代的瓷枕造型多为虎形，虎画得非常勇猛威风，大将军耶律羽之在大战前睡觉时曾经用过这种枕头

88. 基因能控制生物的性状，转基因技术是将一种生物的基因转入另一种生物中，使被转入基因的生物产生人类所需要的性状。这种技术自产生之日起就备受争议。公众最关心转基因食品的安全性：这类食品是否对人有毒？是否会引起过敏？一位专家断言：转基因食品是安全的，可放心食用。

以下各项陈述都支持这位专家的断言，除了：

A. 转基因农作物抗杂草，所以无需使用含有致癌物质的除草剂

B. 转基作物在全球大面积商业化种植 13 年来，从未发生过安全性事故

C. 普通水稻的害虫食用转基因水稻后会中毒，所以种植转基因水稻无需使用农药

D. 杂交育种产生的作物是安全的，用传统方式对作物品种的杂交选育，实质上也是转基因

89. 今年，我国的小汽车交易十分火爆。在北京，小汽车的平均价格是 13 万 8 千元；在石家庄，其平均价格仅为 9 万 9 千元。所以，如果你想买一辆新的小汽车，若去石家庄购买，有可能得到一个更好的价钱。

下面哪一个选项是得出上述观点需要假定的前提？

A. 一类商品的平均价格就是它的中位价格

B. 在北京和石家庄两地所卖的汽车档次差不多

C. 在北京所卖的汽车数量与在石家庄所卖的汽车数量相同

D. 在石家庄新汽车的价格比在北京的新汽车价格更便宜

90. 某公司员工都具有理财观念，有些购买基金的员工买了股票，凡是购买地方债券的员工都买了国债，但所有购买股票的员工都不买国债。

根据以上前提，以下哪一个选项一定为真？

A. 有些购买了基金的员工买了国债

B. 有些购买了地方债券的员工没有买基金

C．有些购买了地方债券的员工买了基金

D．有些购买了基金的员工没有买地方债券

第四部分　数量关系

（共 10 题，参考时限 10 分钟）

在这部分试题中，每道试题呈现一段表述数字关系的文字，要求你迅速、准确地计算出答案。你可以在草稿纸上运算。

请开始答题：

91.农展馆的工作人员对每一位来参观展会的人员进行“您是通过什么方式知道本展会？”的调查，第一天统计调查结果时发现总人数是 500 人，“通过电视广告”项的投票率是 68%。当第二天再次统计时，发现“通过电视广告”项的投票率是 72%，则此时的投票总人数至少是：

A. 570　　B. 575　　C. 600　　D. 625

92.某单位有 185 人，在某次乒乓球比赛中，有 12%的男员工和 12.5%的女员工参加这次比赛，则该单位男员工有多少人？

A. 25　　B. 65　　C. 105　　D. 125

93.小王、小张和小李三个人称体重。小王的体重是小张、小李体重之和的 1/5，小张的体重是小王、小李体重之和的 1/2，则小王和小张的体重之比是

A. $\frac{1}{6}$　　B. $\frac{1}{3}$　　C. $\frac{1}{2}$　　D. 1

94.去超市购物，如果购买 18 件甲商品，10 件乙商品，2 件丙商品，一共需要 196 元。如果购买 13 件甲商品，7 件乙商品，1 件丙商品，一共需要 126 元。问如果甲、乙、丙商品各买 1 件，共需要多少钱？（　）

A. 42 元　　B. 45 元　　C. 48 元　　D. 54 元

95.有七个人出生年份恰好是连续的七年，其中最年轻的三人年龄之和为 42，那么最年长的四个人年龄之和为：

A. 48　　B. 51　　C. 64　　D. 70

96.n 是具有下述性质的最小整数：它是 15 的倍数，而且每一位数字都是 0 或 8，则 $\frac{n}{15}$ 为：

A. 592　　B. 532　　C. 587　　D. 557

97.一列火车，速度降低 20%，经过 2100 米的大桥，用时 100 秒；速度提高 25%后，通过一条 4200 米的隧道，用时 120 秒。问这列火车的长度是多少？

A. 200 米　　B. 300 米　　C. 400 米　　D. 500 米

98.甲、乙两人从相距 600 米的 A、B 两地同时出发，相向而行，到达 A、B 地以后立即返回，如此反复。已知甲的速度为 9 米 / 秒，乙的速度为 6 米 / 秒，两人每次相遇以后速度增加一倍，则 117 秒内两人会相遇多少次？

A．3　　B．4　　C．5　　D．6

99.制造一批零件，按计划 18 天可以完成它的$\frac{1}{2}$，如果工作 3 天后，工作效率提高了$\frac{1}{8}$，那么从开工到完成这批零件的$\frac{1}{3}$，一共需要多少天？

A.12　　B.11　　C.10　　D.9

100.果园里有梨树、桃树、核桃树共 263 棵，梨树比桃树的 2 倍多 12 棵，核桃树比桃树少 9 棵。求梨树、桃树及核桃树各有多少棵？（　）

A. 142,65,56　　B. 150,61,52

C. 144,64,55　　D. 140,66,57

101.某公司销售 A，B，C 三种产品，2013 年度总销售业绩同比实现了 20%的增长，达到 6 亿元。其中 A 和 B 产品的销售额均同比增长 25%,C 产品销售额增长$\frac{1}{6}$。已知 2012 年 C 产品销售额是 2013 年 A 产品销售额的 3 倍。问 2012 年 B 产品的销售额是多少？

A.0.8 亿　　B.1.2 亿　　C.1.5 亿　　D.2 亿

102.一批游客中每人都去了 A、B 两个景点中至少一个。只去了 A 的游客和没去 A 的游客数量相当，且两者之和是两个景点都去了的人数的 3 倍。则只去一个景点的人数占游客总人数的比重为( )

A. 2/3　　B. 3/4　　C. 4/5　　D. 5 / 6

103.把同一排 6 张座位编号为 1，2，3，4，5，6 的电影票全部分给 4 个人，每人至少分 1 张，至多分 2 张，且这两张票具有连续的编号，那么不同的分法种数是：

A．168　　B．96　　C．72　　D．144

104.如图，已知 BO=2×DO，CO=5×AO，阴影部分的面积和是 22 平方厘米，四边形 ABCD 的面积是多少平方厘米？

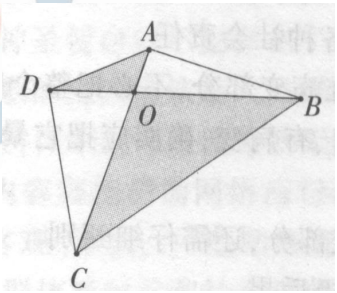

A.30　　B.36　　C.42　　D.48

105.将一个哈密瓜平放在桌面上，然后从哈密瓜的上方垂直桌面向下切三刀，问最多会有几块瓜皮？（　）

A. 6　　B. 7　　C. 8　　D. 9

第五部分　资料分析

（共15题，参考时限25分钟）

所给出的图、表、文字或综合性资料均有若干个问题要你回答。你应根据资料提供的信

息进行分析、比较、计算和判断处理。

请开始答题：

一、 根据以下资料，回答 106-110 题。

2013 年安徽省规模以上高新技术产业实现产值 8330.3 亿元，比上年同期增长 46.5%；实现增加值 2142.7 亿元，同比增长 24.6%，占全省 GDP 的比重 14.2%，比上年提高 1 个百分点；实现新产品产值 1592.9 亿元，比上年同期增长 37.3%。

合芜蚌自主创新试验区规模以上高新技术产业实现产值 5284.4 亿元，比上年增长 45.4%；实现增加值 1324.7 亿元，比上年增长 25.6%。

2013 年，光机电领域实现增加值 949.2 亿元，新材料领域实现增加值 637.6 亿元，生物医药领域实现增加值 150.3 亿元，电子信息领域实现增加值 191.4 亿元，新能源与高效节能领域实现增加值 174.3 亿元，高新技术服务业实现增加值 39.9 亿元。

2013 年，全省 1335 家高新技术企业实现产值 6163.7 亿元，当年申请专利 14183 项，占全省专利申请总数的 29.2%，当年授权专利 8807 项，占全省专利授权总数的 26.9%。其中，营业总收入亿元以上的高新技术企业 551 家，10 亿元以上的 83 家，国家重点高新技术企业 73 家，上市高新技术企业 54 家。

106. 2012 年安徽省全省 GDP( )亿元。

A. 15089.4　　B. 21203.7　　C. 13027.7　　D. 无法计算

107. 2013 年，安徽省规模以上高新技术产业中实现增加值最多的领域占总增加值的比重比最少的多(　　)个百分点。

A. 29.6　　B. 42.4　　C. 32.7　　D. 10.9

108. 2013 年，合芜蚌自主创新试验区规模以上高新技术产业实现产值同比增加( )亿元。

A. 1650.0　　B. 270.0　　C. 1543.8　　D. 326.1

109. 2013 年，安徽省专利授予比例为：

A. 0.52　　B. 0.47　　C. 0.58　　D. 0.67

110. 根据资料，下列表述中正确的一项是：

A. 2012 年，安徽省规模以上高新技术产业实现增加值超过 2000 亿元

B. 2013 年，合芜蚌自主创新试验区规模以上高新技术产业实现增加值不到全省规模以上高新技术产业增加值的一半

C. 2013 年，安徽省营业总收入亿元以上的高新技术企业数是国家重点高新技术企业的 7 倍多

D. 2013 年，安徽省 1335 家高新技术企业平均实现产值超过 5 亿元

二、根据以下资料，回答111-115题。

2013 年 1-3 季度，浙江省实现地区生产总值 24214.9 亿元，比上年同期增长 7.7%，增速比 1-2 季度加快 0.3 个百分点。其中，第一产业实现增加值 1029.4 亿元，增长 2.1%；第

二产业实现增加值 12269.0 亿元，增长 6.8%；第三产业实现增加值 10916.5 亿元，增长 9.2%。

2013 年 1~3 季度浙江省各市生产总值及同比增速

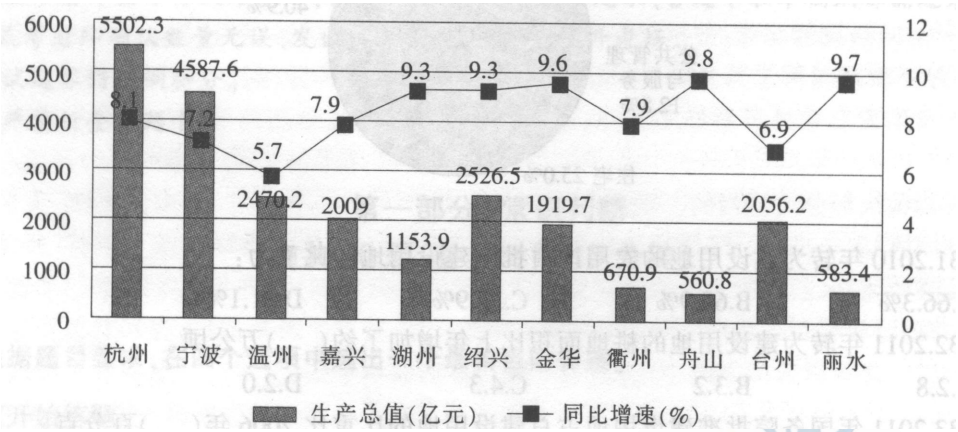

111.2013 年 1-3 季度，浙江省第一产业增加值比上年同期增加(　　)亿元。

A.20.8　　B.21.2　　C.22.3　　D.23.7

112.2013 年 1-3 季度，温州市生产总值占浙江省地区生产总值的比重比上年同期：

A. 下降了 1.2 个百分点　　B. 上升了 1.2 百分点

C. 下降了 0.2 个百分点　　D. 上升了 0.2 个百分点

113.2013 年 1-3 季度，杭州市实现生产总值是衢州市与丽水市总和的（　　）倍。

A.4.4　　B.4.9　　C.5.2　　D.5.7

114.2012 年 1-3 季度，浙江省实现生产总值最少的是（　）市。

A.湖州　　B.衢州　　C.舟山　　D.丽水

115. 下列说法正确的是：

A. 2013 年 1—2 季度，浙江省实现地区生产总值同比增长 8.0%

B.2013 年 1-3 季度，浙江省第三产业增加值占地区生产总值的比重较上年同期下降 1.5 个百分点

C. 2012 年 1-3 季度，宁波市实现生产总值 4279.5 亿元

D. 2013 年 1-3 季度，金华市实现生产总值不足杭州市的三分之一

三、根据以下资料，回答116-120题。

表 1：2013 年 1~6 月规模以上电子信息制造业主要经济指标完成情况

单位名称	销售产量		出口交货量	
	累计（万元）	增减%	累计（万元）	增减%
全部企业合计	391866177	11.1	212988219	9.6
其中：通信设备制造业	57689556	17.4	29803250	20.1
雷达制造业	1289349	20.8	286336	37.4
广播电视设备制造业	3407619	18.1	1203301	12.7

电子计算机制造业	102234090	12.5	77868316	12.4
家用视听设备制造业	23804035	4.4	11865378	0.2
电子器件制造业	59112765	14.6	38002587	11.4
电子元件制造业	67892201	8	33664121	5.7
电子测量仪器制造业	8179404	20	1620661	11.1
电子专用设备制造业	13373933	14.7	3960915	1.4
电子信息机电制造业	31116731	7.8	10316770	-4.4
其他电子信息行业	23766495	-1.9	4396584	-14

表 2：2013 年 1~6 月规模以上电子信息制造业主要效益指标完成情况

单位名称	主营业务收入		利润总额		税金总额	
	累计（万元）	增减%	累计（万元）	增减%	累计（万元）	增减%
全部企业合计	389616807	9.4	12271537	-14	5922403	13.5
其中：通信设备制造业	58244593	12.6	1908673	-27.3	1365017	5.2
雷达制造业	1261202	13.5	53319	19.5	14997	8.1
广播电视设备制造业	3385077	14.7	231211	46.5	72383	32.6
电子计算机制造业	103112200	11.1	2063581	0.9	806118	41.3
家用视听设备制造业	24141740	5.6	614192	27.3	412711	18.3
电子器件制造业	57397485	13.7	1748766	14.4	538546	22.4
电子元件制造业	66921485	6.6	2477647	-3.4	1047495	18.9
电子测量仪器制造业	8359428	20.5	782916	23.6	286886	25.9
电子专用设备制造业	12700539	10.5	521295	2.5	289456	19.8
电子信息机电制造业	30380051	5.3	1062670	-37.4	616109	10.7
其他电子信息行业	23713007	-2.5	807266	-59.2	472685	-19.2

116. 2013 年 1~6 月规模以上电子信息制造业完成销售产值比上年同期多约(　　)亿元。

A．3902　　B．3915　　C．3934　　D．3971

117．2013 年 1~6 月出口交货值占销售产值的比重超过 50%的行业有几个？

A．3　　B．2　　C．5　　D．4

118．在表 2 所给的 11 个行业中，2013 年 1~6 月实现利税总额（利润+税金）处于第九

位的行业是：

A．其他电子信息行业　　B．广播电视设备制造业

C．电子测量仪器制造业　　D．电子专用设备制造业

119．2012 年 1-6 月电子信息机电制造业主营业务收入约为雷达制造业的(　　)倍。

A.24　　B A．25　　C．26　　D．27

120．下列说法不正确的是：

A．2013 年 1～6 月家用视听设备制造业完成销售产值同比增速低于全行业 6.7 个百分点

B．2012 年 1~6 月电子专用设备制造业完成出口交货值 380 亿元

C．2013 年 1~6 月电子元件制造业利润总额占主营业务收入的比重较上年同期下降

D．2012 年 1~6 月通信设备制造业完成税金总额是行业中最高的

《职业能力倾向测验》模拟题（一）参考答案

1. 【答案】D

【解析】本题考查经济常识。本题考查经济常识。简单来说，紧缩性货币政策就是通过减少流通中的货币量的办法以提高货币购买力，减轻通货膨胀压力。其主要工具有：出售政府债券；提高贴现率和再贴现率；提高商业银行的法定准备金；提高利率，紧缩信贷。而降低利率会增加流通中的货币量，属于扩张性的货币政策工具，因此答案为 D。

2.【答案】B。

【解析】本题考查国情常识。A 主要用来描述的是三个代表重要思想，而且也不是根本性问题，A 错。CD 是干扰项，因此答案为 B。

3.【答案】A。

【解析】本题考查政治常识。《中国的红色政权为什么能够存在？》是毛泽东关于红色政权能够存在和发展的理论，指明了在反动统治薄弱的农村积聚力量，实行工农武装割据，农村包围城市，最后夺取城市取得全国政权的道路。这是毛泽东思想开始形成的一个标志，是马克思主义中国化的里程碑。A 项正确。

《井冈山的斗争》一文是毛泽东同志写给中共中央的报告。文章分为湘赣边界的割据和八月失败、割据地区现势、军事问题、土地问题、政权问题、党的组织问题、革命性质问题、割据地区问题共八个方面。《星星之火，可以燎原》进一步阐述了农村包围城市、武装夺取政权理论。《反对本本主义》在中国共产党历史上最早明确地提出党的思想路线问题（即实事求是、群众路线和独立自主），强调共产党人要坚持从斗争中创造新局面的思想路线。B、C、D 三项都不符合，因此答案为 A。

4.【答案】B。

【解析】本题考查国情常识。中国农村扶贫开发纲要指出：坚持开发式扶贫方针，实行扶贫开发和农村最低生活保障制度有效衔接。把扶贫开发作为脱贫致富的主要途径，鼓励和帮助有劳动能力的扶贫对象通过自身努力摆脱贫困；把社会保障作为解决温饱问题的基本手段，逐步完善社会保障体系。因此答案为 B。

5.【答案】A。

【解析】本题考查科技常识。三氯生常态为白色或灰白色晶状粉末，稍有酚臭味。不溶于水，但易溶于碱液和有机溶剂。三氯生是一种广谱抗菌剂，被广泛应用于肥皂、牙膏等日用化学品之中。三氯生会和自来水中的氯发生反应，产生挥发性物质三氯甲烷。三氯甲烷是一种强的心脏血管抑制剂，对肝脏、肾脏也有毒性，可能造成肝脏的肿大和坏死；同时，它对中枢神经系统会产生抑制作用。因此答案为 A。

6.【答案】A。

【解析】本题考查科技常识。运动中扭伤，可用冷水浸泡毛巾或将冰块装入塑料袋内进行外敷，3 分钟更换 1 次，持续 30 分钟，使血管收缩，减轻局部充血，降低组织温度，起

到止血、退热、镇痛的作用。因此答案为 A。

7.【答案】D

【解析】本题考查文化常识。A 项，小暑是指讲入一年中的酷暑季节，但是还没有到达最热时期，大暑是指进入一年中最热的时期。B 项，立春位居二十四节气之首，是春季的开始，气候开始回暖，土壤开始解冻，但不是降雨的开始，降雨是在雨水的节气。C 项，春分时各地昼夜等长，其后北半球进入昼长夜短的季节。D 项，秋分时，全球昼夜等长，其后北半球各地昼渐短夜渐长，南半球各地昼渐长夜渐短。因此答案为 D。

8.【答案】B

【解析】本题考查文化常识。A 全选项，喜鹊在水中的倒影反映的是平面镜成像原理；B 选项，将瀑布比成银河运用的是比喻手法；C 选项，描写月亮在水中的倒影，反映了平面镜成像原理；D 选项同 C 选项，也是描写月亮在水中的倒影。因此答案为 B。

9.【答案】D。

【解析】本题考查法律常识。不当得利的构成需具备三项条件：(1)取得利益无法律依据。(2)一方受损失，他方得利益。(3)两者之间有直接因果关系。A 项属于无因管理，丙是自愿对自己财产的处分，不存在损失的问题。不选。B 项不符合(2)，故不选。C 项乙只是接受偿还，没有利益，甲的行为才是不当得利。不选。D 符合不当得利的全部构成要件，因此答案为 D。

10.【答案】C

【解析】本题考查政治常识。C 项，能够最大限度地吸收社会闲散资金的有效形式是活期存款，而不是零存整取。其他三项内容表述均正确。因此答案为 C。

11.【答案】D。

【解析】本题考查科技常识。A 项中原子弹的巨大威力就是来自核裂变产生的巨大能量。B 项中应当为甲醛。C 项中钛比铝重，所以错误。因此答案为 D。

12.【答案】C

【解析】本题考查科技常识。1 一次能源是指直接取自自然界没有经过加工转换的各种能量和资源；由一次能源经过加工转换以后得到的能源产品，称为二次能源。可再生能源是指在自然界中可以不断再生、永续利用的能源，具有取之不尽，用之不竭的特点；不可再生能源指人类开发利用后，在现阶段不可能再生的能源资源。煤炭属于一次能源和不可再生能源；电能属于二次能源和可再生能源，太阳能属于一次能源和可再生能源，水煤气属于二次能源和不可再生能源。因此答案为 C。

13.【答案】D

【解析】本题考查文化常识。《洛阳伽蓝记》，为北魏杨炫之所撰，内容主要记载洛阳的佛寺及与之有关的名人轶事、奇谈异闻，属于地理著作。《南柯记》为明代戏曲家汤显祖的作品。《西厢记》为元代杂剧作家王实甫的作品。《离魂记》是唐代陈玄佑的作品，属于唐传奇。D 项正确，因此答案为 D。

14.【答案】A

【解析】本题考查文化常识。A 项所描述的是元宵节。元夜，即农历正月十五元夜，又称上元节、灯节。中国节日之一。其他三项均正确。因此答案为 A。

15.【答案】D

【解析】本题考查文化常识。 20 世纪以来中国经历的三次历史性的巨变分别是：一是 20 世纪初，孙中山领导的辛亥革命，推翻了几千年的封建帝制，打开了中华民族从积贫积弱走向富强民主的闸门，二是 20 世纪中期，以毛泽东为代表的中国共产党人领导人民经过 28 年艰苦奋斗，推翻了帝国主义、封建主义、官僚资本主丈的反动统治，建立了社会主义新中国，人民当家作主，为中国的富强民主奠定了坚实的基础。三是 20 世纪 70 年代末起，邓小平领导中国共产党发起了实行改革开放的第三次革命，开辟了中国特色社会主义道路，实现了孙中山、毛泽东等无数仁人志士的伟大理想，把富强和民主变成了生动的现实。三大改造的完成，实现了把生产资料私有制转变为社会主义公有制，使中国从新民主主义社会跨入了社会主义社会，初步建立起社会主义的基本制度。因此答案为 D。

16.【答案】D。

【解析】本题考查自然地理常识。柴达木盆地煤铁石油资源丰富，因此被称为“聚宝盆”。因此答案为 D。

17.【答案】C

【解析】本题考查科技常识。艾滋病的传播途径有：性接触传播、血液传播、母婴传播。C 项中艾滋病等可以通过蚊虫叮咬传播的说法错误。因此答案为 C。

18.【答案】B

【解析】本题考查自然地理常识。森林中空地的北部边缘，青草较茂密。因为空地北部接受到的太阳光相对南部较多，所以北部的青草生长应该茂密。故 B 项说法错误。其他三项说法正确。因此答案为 B。

19.【答案】C。

【解析】本题考查公务员常识。根据《公务员法》第 90 条的规定，公务员对涉及本人的人事处理不服的，可以自知道该人事处理之日起三十日内向原处理机关申请复核；对复核结果不服的，可以自接到复核决定之日起十五日内，按照规定向同级公务员主管部门或者作出该人事处理的机关的上一级机关提出申诉；也可以不经复核，自知道该人事处理之日起三十日内直接提出申诉。刘军不是聘用制公务员，发生人事争议时，不能向人事争议仲裁委员会申请仲裁。因此答案为 C。

20.【答案】C。

【解析】本题考查经济常识。增加财政支出，会带来政府购买和投资的增加，无法解决投资扩张的问题，可排除 A。增加货币供给量则会带来私人消费和投资的增加，也无法抑制投资扩张，可排除 B。增加国债规模，使更多的资金用来购买国债，从而货币回笼，届时尽管市场上流通的货币量会减少，但是回笼的货币在财政收支盈余或者平衡的情况下仍将用于

投资，所以增加国债的规模不一定能起到抑制投资扩张的目的，可排除 D。提高贷款利率，可以提高资金使用成本，从而抑制投资，因此答案为 C。

21. 【答案】A。

【解析】本题考查实词辨析。狭隘：心胸、气量、见识等不宏大宽广，侧重于“窄”。句意是说在深厚的历史面前，仅以诺奖来评判的心态是短视肤浅的，侧重于“浅”，据此可排除 B。偏颇：偏向某一方面，有失公允，与句意不符，排除 D。埋没：使显不出来，使不发挥作用，如埋没人才。淡忘：印象逐渐淡薄以至于忘记。而真正的贡献可能被“淡忘”，但不会被“埋没”。因此答案为 A。

22.【答案】A。

【解析】本题考查实词和成语的混合辨析。句中说的是空间信息技术在文化遗产的保护和恢复中的作用，第一空所填词语应与后文的“遥感与探测、定位、测量、展示、分析、综合”相对应，据此排除与此无关的“利用”和“开发”，即 C、D 项。第二空中，“不可或缺”比喻一点也不能缺少，与“支撑”呼应更恰当。因此答案为 A。

23. 【答案】D。

【解析】本题考查实词辨析。由“但是”可知，题干第二句话与第一句话构成转折关系，即第二句话要说明的是不能太专注于细节。而第二句话前半句说的是过于专注细节会产生的问题，后面半句讲的是解决方法。综合可知，第一空和第二空所填词语应构成反义对应关系，A、B 两项明显不合要求。“摒弃”表示抛弃，程度过重，由此排除 C。因此答案为 D。

24. 【答案】A

【解析】本题考查实词辨析。本题主要考查对应关系：、由句意可知，第一空所填词语应和“单方面”相对应。“灌输”更能体现这种单向性。第二空，对应“作为重要的一员”、“参与”、“单边统治”可知，“共生”最契合。因此答案为 A。

25.【答案】B。

【解析】本题考查成语和实词的混合辨析。从句中“使人有如临其境之感，好像也回到了童年读书时代”，可以看出“作者”的表述是非常生动，非常具有感染力的，四个选项中，B 项的词语更能表达这种效果，因此答案为 B。

26. 【答案】A。

【解析】本题考查实词和成语的混合辨析。先看第一空，B 项，“关注”指关心注意。程度相对较轻，不能体现人们当时的疯狂状态，排除。再看第二空，由“就像围着蜜罐的苍蝇”可知，第二空应填人一个表示贬义的词语。“趋之若鹜”比喻很多人争相追逐、趋附，含贬义。而“爱不释手”、“情有独钟”均不含贬义，排除 C、D。因此答案为 A。

27.【答案】A。

【解析】本题考查实词和成语的混合辨析。“辉映”指照耀，映射；“烘托”指陪衬，使明显突出。很明显，两者均不符合句意，排除 B、D。“绘声绘色”形容叙述、描写生动逼真；“精雕细刻”指精心细致地雕刻，形容做事认真细致。由句意可知，“绘声绘色”更具形

象感，且能与“色香味俱全”形成呼应。因此答案为 A。

28.【答案】A。

【解析】本题考查成语辨析。由“或者说”可知，第一空的词语应与“没有什么规律可循”相对应，“稍纵即逝”、“标新立异”明显不合要求，排除 B、D 两项。“按部就班”指按照一定的规矩、程序办事；“循序渐进”指按照次序有步骤地逐渐提高或发展。与“制定一个框架”、“工匠活”相对应，第二空用“按部就班”更恰当。因此答案为 A。

29. 【答案】A

【解析】本题考查实词和成语的混合辨析。文段描述知识分子的特点和人格特质。第一个空从后面的“而非”可以看出，专家，指的是在某个领域非常权威，非常精通。显然，非专家，是否定专业领域，故排除 B。由创意无穷、心思敏锐、兴趣广泛可以看出，这些人的优势是思维活跃，但同时具备的人格特质是不切实际和选项，近义词为天马行空，有缺乏根据、不受约束的意思。无拘无束没有这个意思，挥洒自如也没有。因此答案为 A。

30.【答案】C

【解析】本题考查实词辨析。文段描述了最高法院批复对宪法司法的基本立场。第二个空显然强调权利受司法保护的方式，A 选项，如果法院支持司法救济，则引起了是支持受侵害者还是支持司法救济的提供者的歧义，排除；B 选项授予司法救济搭配不当，排除。剩余 C、D 选项，立场相对于原则更加主观，给予相对于提供更加主动，因此答案为 C。

31.【答案】D

【解析】本题考查成语辨析。通过第一空后面的“无心提防老鼠和小偷”可知猫狗是因为没有干什么事情而被主人赶出家门的，而 A 项的“一无是处”指一点对的地方也没有，C 项的“无所不为”指没有什么不干的，什么坏事都干。两者均与句子意思不符，故可排除。B 项，“争风吃醋”指因追求同一异性而互相妒忌争斗，用在此处显然不合题意，故也可排除。因此答案为 D。

32.【答案】C

【解析】本题考查成语辨析。先看第一空，根据前文语意，此处应填入一个词语形容蛙鸣的声音非常大。振聋发聩，声音很大，使耳聋的人也听得见，比喻用语言文字唤醒糊涂麻木的人，使他们清醒过来。用在此处不合语境，排除 A 项。沸反盈天，声音像水开锅一样沸腾翻滚，充满了空间。形容人声喧闹，乱成一片。此处是用来形容青蛙的叫声；不恰当，排除 D 项。“青蛙绿色的脊背和腮边时收时缩的气囊，把水面都遮没了”，是一种罕见的情形，这种情景给人留下的印象应该是十分深刻的。不寒而栗，不冷而发抖，形容非常恐惧。噤若寒蝉，比喻因害怕有所顾虑而不敢说话。此处作者面对的是自然景象，没有不敢说话的情境，比较两词词义可见，不寒而栗用在此处更为恰当，排除 B 项。因此答案为 C。

33.【答案】A

【解析】本题考查实词辨析。首先看第一空，根据“部分商品在国内的销量已经超越了同类海外品牌”可知，“骤然”与语意不符，排除 B 项。“逐步”侧重指有步骤分阶段实行，

强调步骤性。“逐渐”侧重指渐渐变化，不强调步骤阶段。根据文意，中国时尚产业的发展更侧重于渐渐变化，故排除 D 项。再看第三空，“显现”是指某样东西显性了的意思；“呈现”指将某样东西让大家看；“出现”是指显性的意思；“展现”指将某样东西展现出来。根据文意，“显现”更适合。“占据……地位”是固定搭配。因此答案为 A。

34.【答案】C。

【解析】本题考查实词和成语的混合辨析。先看第一空，“充斥”意为充满（含厌恶意），用来形容《顾准文集》、《顾准日记》，感情色彩不符，可首先排除 A。《顾准文集》、《顾准日记》之所以畅销，缘于顾准其人“满足”了人们对于知识分子角色的期许，而不是“印证”或“引发”。第三空中“老少咸宜”也符合“三字经”的特点。因此答案为 C。

35.【答案】A

【解析】本题考查成语辨析。先看第一空。B 项，“络绎不绝”形容行人、车马、船只等来往频繁，连续不断。C 项，“纷至沓来”形容纷纷到来，连续不断地到来。B、C 项都不能用来形容“感慨”和“浩叹”，故排除。第二空，“不绝于耳”是指声音在耳边不断鸣响；“没世不渝”是指终身不变，显然“感慨”和“浩叹”都是声音，所以第二空应选“不绝于耳”。因此答案为 A。

36. 【答案】D。

【解析】本题考查符合型。根据文段第一句可以推断，西方虽然很难解决收入不公和内需不足的难题，但并不是没有可能解决。因此排除 B 项。A、C 两项文中都没有明确提及，故排除。整个文段都是围绕预言提出暗含的前提展开论述，D 项为文段主题句。因此答案为 D。

37.【答案】D。

【解析】本题考查标题型。文段从“科学的实质未得到充分发扬，反遭到另有用心的利用”这样一个论点出发，然后具体论述了在社会生活的各个方面，科学被投机者大肆利用，甚至被亵渎的种种表现。D 项是对文段主要内容的概括，当选。A 项迷惑性比较大，但文段说的是科学不仅成了市侩商品的招牌，还被利用给迷信欺骗作掩护。A 项没有准确地体现科学被滥用的严重性，不如 D 项恰当。因此答案为 D。

38.【答案】D

【解析】本题考查意图型。文段第一句话概括了文段的主要内容，即精读要抓重点，也要深入钻研，D 项内容是对这一主要内容的同义转换，因此答案为 D。A 项只概况了文段的前半部分内容，以偏概全，排除；B 项、C 项是文段中的部分细节，不是文段意在强调的内容，排除。因此答案为 D。

39.【答案】D。

【解析】本题考查意图型。文段围绕个人快递信息被泄露这一问题展开，指出提高快递人员素质、依法惩处违法出售公民信息者只是一方面，更重要的是整个互联网电商、快递行业没有对消费者个人信息安全问题引起足够重视，缺乏起码的个人信息保护制度。D 项与此相符。A 项只是文段表述的一个基本事实，不是文段的主旨所在。B 项“制定相关法律法规”

在文段中没有提及。C 项只是文段的部分内容，不是文段重点。因此答案为 D。

40.【答案】D。

【解析】本题考查主旨型。文段首先说明城市道路资源的公共属性，然后提出私人占用公共资源要付费这一做法的可行性，最后通过伦敦、新加坡的例子印证了这一观点。由此可知文段主要强调的是对占用公共资源的私车进行收费这一做法的可行性、合理性，故 D 项符合。因此答案为 D。

41.【答案】D。

【解析】本题考查主旨型。文段由《见义勇为奖励和保护条例》的出台为切入点，针对“路见不平无人相助”和“做好事被诬陷”的现象，指出只有每个人都常怀感恩之心，使人们彼此信任，助人为乐才能真正成为社会共识。法律制度只是文段的切入点，不是主要说明的内容，排除 A、B。C 项比较笼统，不如 D 项契合文意，因此答案为 D。

42.【答案】A。

【解析】本题考查主旨型。文段首先指出社区商业的重要性，接着以“因此”得出结论，指出构建我国现代社区商业网络，是满足社区居民日常生活需求，提高居民生活质量的重要举措。在四个选项中只有 A 项表达了该结论，其他三个选项均是文段前半部分对社区商业重要性的阐述。因此答案为 A。

43.【答案】D。

【解析】本题考查主旨型。文段最后一句是主旨句。故文段论述主体应该是艺术家，排除 C 项。根据最后一句话可知，A 项错误，文段论述的是艺术家的心灵之旅是怎么一回事，而不是艺术家的心灵之旅“需要”训练，同理排除 B 项。D 项正确，文段主要以离开舒适的环境，去石头上睡觉类比，说明艺术家的心灵之旅是什么。因此答案为 D。

44.【答案】B。

【解析】本题考查主旨型。文段通过“慈善是一种高尚的行为……慈善的本质是爱……不带任何功利色彩”推出结论：慈善的表现方式理当是沉默的。接着对明星高调宣扬自己的慈善行为进行批评，最后又强调“慈善如阳光普照人间，温暖人心，而阳光，恰恰是无声的”。故文段所强调的是，慈善贵在沉默。因此答案为 B。

45.【答案】 A

【解析】本题考查意图型。通过这个寓言作者要阐述的哲理是责任要归咎于罪魁祸首，正如墙被钉坏，是敲钉子的人的错误，而非钉子的错误。A 项正确。因此答案为 A。

46.【答案】C。

【解析】本题考查意图型。文段从三个方面说明真正的燕尾服价格不菲。①只有经过相当严格的资格认定的那些有数的老字号才能做。②在国王加冕、王子大婚等超重量级场合穿。③有囊中羞涩的外交官会因承受不起燕尾服不菲的价格而推辞参加这种盛典。因此答案为 C。

47.【答案】A

【解析】本题考查排序型。本题中，“但”“因此”“因为”“尽管”都是连接上下文的关

联词，因为④⑤两句都提到了燧石，这两句应该是挨着的，故排除 B、C 选项，④和⑦都是陈述句，也没有关联词，可以作为第一句，第②句中有“尽管”一词，下一句应有与之对应的转折关联词，第⑥句接比较合适，因此②⑥应该是挨着的，选项 A 的排序正确。因此答案为 A。

48.【答案】C。

【解析】本题考查符合型。文段中说的是中微子“可能是构成我们所在宇宙中最常见的粒子之一”，而 C 项忽略了“可能”与“之一”，错误。因此答案为 C。

49.【答案】B。

【解析】本题考查主旨型。从文段开头，“可以归因于 1995 年开始的市场化探索”，B 项是同意改写，其他选项要么是它的组成部分，要么是由它间接带来的。因此答案为 B。

50.【答案】B。

【解析】本题考查接语推断型。文段首先指出老年人在社会中扮演的重要角色，接着说明老年人在现代社会面临的威胁，最后用“但是”作转折说明老年人可能成为现代社会的福音，而不是负担。C 项在文段中已有涉及，可首先排除。A、D 项与文段联系不够紧密，跳跃性较大，排除。而 B 项紧承文段末句，衔接恰当。因此答案为 B。

51. 【答案】B

【解析】本题考查选句填空型。文中与横线处最相关的是最后一句“文化心理上仍然保留着战争时期的痕迹”，横线处的句子与这句话构成因果关系，因此排除 A、C 选项。B 选项强调的是“斗争”，D 选项强调的是“和平”，从下文“仍然”一词可知存在递进关系，文章强调的是“斗争”，因此答案为 B。

52.【答案】D。

【解析】本题考查选句填空型。结合文段可知，“因此”后的内容是对文段的总结，前文说的是人们对童年可能孕育的幸福和罪恶所知甚少。A 项“走上一条南辕北辙的道路”与前文“讨论”的语境衔接不恰当，且语义较重，排除。B 项的“根本不明白”说法过于绝对，排除。C 项的“所知甚少”与前文有重复之嫌，排除。D 项“大多数时候”与前文的“当……时”衔接恰当，且“力不从心的口号”也与前文的“讨论”、“所知甚少”呼应更恰当。因此答案为 D。

53.【答案】C。

【解析】本题考查主旨型。文段讲述了富兰克林的一次经历，这段经历是其“成功之道”的源起。一位前辈教会了他人生中非常重要的一个道理，即“一个人要想洞察世事，练达人情，就必须时刻记住低头”。“低头”是这段文字的中心词，这段文字的主旨就是向我们说明谦虚的重要性。A 项的“虚心”、B 项的“谦卑”都与主旨内容直接相关；D 项中“自负”“骄傲”是“谦虚”的反义词，是对文段主旨的反向表达，与主旨内容间接相关。C 项显然与文段内容无关，因此答案为 C。

54.【答案】D

【解析】本题考查意图型。本题中，A、C 两项都是对文段部分内容的概括，故可以排

除。虽然文段说“承认焦虑的价值，并不妨碍我们同时对它进行质疑”，即要辩证地看待“焦虑”，但这并非作者要表达的重点，因此 B 项也排除。文段的重点在最后一句，为什么我们的很多欲望总是与自己真正的需求无关？这是因为我们过多地关注他人对自己的看法，而未从自己的真正需求出发去努力。这样反推过来，便是作者要传递给我们的信息。因此答案为 D。

55.【答案】B

【解析】本题考查选句填空型。根据横线前的“即……”可知填入部分是对前文作出的总结。前文所述的顾客对企业的种种好感即“消费者情感导向”，而企业声誉产生于顾客对企业的好感即“企业声誉主要受到消费者情感导向的左右”，故 B 项最符合文意。A 项，文段并未说明企业声誉的效果，而是企业声誉的来源；C 项并不是对前文的总结；D 项属于无关项，文段并未提及企业会受到惩罚。因此答案为 B。

56.【答案】D

【解析】本题考查属性型。第一组图形均为左右对称，第二组图形均为上下对称，选项中只有 D 项符合。因此答案为 D。

57.

【答案】A

【解析】本题考查数量型。每个图形都有 4 个交点，只有 A 符合。因此答案为 A。

58.【答案】C【解析】本题考查空间类。由左图知，A 项正面的直线应垂直于右侧面，A 项的顶面与右侧面应对调；B 项顶面的斜线方向错误；C 项可由左边图形折成；D 项的正面和右侧面是相对面，不能相邻。

59. 【答案】A。解析：题干图形都是由小正方形组成的。每行第二、三个图形都是由两个第一个图形组合而成的，选项中只有 A 符合。

60.【答案】B

【解析】从左到右，从上到下来看，每个图形中阴影分别顺时针移动 1、2、3、4、5、6、7、(8)格，中间小圆的阴影循环变化得到后一个图形。

61.【答案】A

【解析】本题考查肯定型单定义判断。操作性定义的定义要点是：可观察、可测量、可操作的特征。A 项符合定义；B 项三个基本要素是对定义的一种规定，而不是可观察、可测量的，C、D 两项同样不符合定义。因此答案为 A。

62.【答案】B

【解析】本题考查肯定型单定义判断。高语境传播的定义要点是：①在交流过程中；②重视“语境”而非“内容”。A 项不符合①；B 项符合定义；C 项的“具体全面描述的细节”和 D 项的“以书面形式呈现的信息”，都是具体内容而非语境，不符合②。因此答案为 B。

63.【答案】C

【解析】本题考查否定型单定义判断。拆屋效应的定义要点是：先提出一个大的要求，再提出小的要求。A、B、D 三项都符合定义；C 项是先提出一个小的要求．不符合拆屋效应

的定义。因此答案为 C。

64.【答案】B

【解析】本题考查否定型单定义判断。无意失聪的定义要点是：①集中精神做事；②对外界充耳不闻。B 项由于手机调成振动所以才会没听见，并没有体现①。A、C、D 三项都符合定义。因此答案为 B。

65.【答案】C

【解析】本题考查否定型单定义判断。C 项属于交通事故，且司机是酒后驾驶，应负全责，理应承担合理赔偿，故不属于“投机取巧，敲诈勒索”，应选。因此答案为 C。

66.【答案】C

【解析】本题考查肯定型单定义判断。A 项、D 项只存在一个要求；B 项没有体现出定义。因此答案为 C。

67.【答案】D

【解析】本题考查肯定型单定义判断。A、C 项的变异现象不可遗传，B 项，没有出现新性状，D 项，太空回来的作物具有以往品种没有的优势，因此出现了祖先没有的新性状，它是进行四代种植选出的，说明其新性状能够遗传，符合定义。因此答案为 D。

68.【答案】A

【解析】本题考查否定型单定义判断。根据定义，自我意识过剩表现为“因为太在乎别人而限制了自己的言行”和“过分以自身认知干涉外界”，A 项没有体现因为他人的看法而限制自己的言行，不属于自我意识过剩，B 项因太在乎别人的看法而改变了自己的行为，属于自我意识过剩，C、D 项都属于用自己的认知干涉外界，也属于自我意识过剩。因此答案为 A。

69. 【答案】A

【解析】本题考查区别型多定义判断。赠送促销的定义要点是：①通过赠送新产品或其他便宜的商品；②介绍性能、特点、功效；③达到促进销售的目的。A 项 200ml 的洗发水是在购买之后赠送的，没有起到介绍性能、特点、功效的作用，不符合②。因此答案为 A。

70.【答案】B

【解析】本题考查区别型多定义判断判断。本题的关键点是“群体极化是群体成员间相互影响而使结果得到加强并趋于极端化”。A 项中略带瑕疵的电影在论坛被批驳得一无是处是属于冒险偏移。C 项中对不良行为保持沉默，使气焰嚣张属于谨慎偏移，D 项中足球比赛中甲队因犯规被判点球，甲队球迷表示极大不满，并纷纷向场内投掷杂物属于冒险偏移。B 项中博士论文答辩属于表决不通过，并没有成员间相互影响。因此答案为 B。

71.【答案】C

【解析】本题考查集合类。猕猴桃和火龙果都属于植物，且猕猴和龙都是动物；枯叶蝶和竹节虫都是动物，且枯叶和竹是植物。因此答案为 C。

72.【答案】A

【解析】本题考查逻辑类。客人在茶馆喝茶，观众在电影院看电影，法官在法庭审判案件，病人在医院治疗疾病。进一步比较可知，茶馆为客人提供茶，电影院为观众提供电影，即第一项为第二项提供第三项，B、D 两项均不符合。因此答案为 A。

73.【答案】A

【解析】本题考查集合类。“阴”与“晴”反义，“圆”与“缺”反义，“生”与“死”反义，“存”与“亡”反义。只有 A 项符合。因此答案为 A。

74. 【答案】C

【解析】本题考查语法类。日出和日落相对，都是主谓结构；潮起和潮落相对，且都是主谓结构。且两组词都是自然现象。因此答案为 C。

75.【答案】B

【解析】本题考查集合类。元宵节又称上元节，七夕又称乞巧节，故选 B。清明节又称踏青节，重阳节又称老人节，寒食节又称冷节，即 A、C、D 项均对应错误。因此本题答案为 B。

76.【答案】B

【解析】本题考查语法类。题干中“演唱歌曲”是谓宾结构，“演唱”是动词，“歌曲”是名词。

A 项，企图逃跑也是谓宾结构，但顺序和题干顺序不符。

C 项，法律约束是主谓结构。

D 项，贯彻执行是并列结构的动词短语，不是谓宾结构。

因此答案为 B。

77. 【答案】C

【解析】本题考查逻辑类。用斧头劈木柴；用锤子敲钉子；用小刀削铅笔。进一步比较发现，劈木柴和削铅笔都会对后者进行破坏，而敲打钉子只是将钉子钉入，没有对其进行破坏。因此答案为 C。

78. 【答案】D

【解析】本题考查集合类。繁华与车水马龙是近义词，D 项雀跃与兴高采烈也是近义词。因此答案为 D。

79.【答案】C

【解析】本题考查逻辑类。采菊东篱下表现的是一种淡泊名利的思想，书中自有黄金屋表达的是从功利的角度劝人读书的思想。因此答案为 C。

80.【答案】D

【解析】本题考查集合类。“蜗居”（1）比喻窄小的住所。（2）伏处、潜居。“不负众望”指不辜负大家的期望。

A 项中，“蜗居”取第一个意思，与“豪宅”是一对反义词。“众望所归”与“不负重望”是一对近义词。两者前后对应关系不一致，故排除。

B 项中，“蜗居”取第个意思，“潜居”意指隐居。二者是一对近义词，而“大失所望”与“不负重望”在词义上相反。

C 项中，“别墅”跟“蜗居”是反义词。“深孚众望”指深得众人信服。两者对应规律不一致，排除。

D 项中，“蜗居”取其第二个意思，与“游历”是一对反义词。“不负众望”指不能使大家信服，未符合大家的期望。与“不负重望”常被混淆，但其实是一对反义词。

因此答案为 D。

81.【答案】C

【解析】本题考查翻译推理型。题干包含三个充分条件假言命题，可构成连锁推理如下：

说服别人→让别人相信→让人觉得可靠→诚实。

肯定后件不能肯定前件，A 项错误；否定前件不能否定后件，B 项错误；诚实是说服别人的必要条件，C 项正确；D 项相信别人与“让别人相信”含义不同，且推理也有误。故答案选 C。

82.

【答案】D

【解析】本题考查削弱型。题干中有关人士的观点为:“中国的传统出版业也前景堪忧”，依据为“韩国已经开始将中小学所使用的教科书数字化，未来几年传统纸媒教材有可能在韩国消失”。②指出中国跟韩国在各方面有相当大的差距，因此不能根据韩国的情况去推测中国的状况，能够打消有关人士的顾虑。其他几项均不能。因此答案选 D。

83.【答案】D

【解析】本题考查加强型。由“有些未受过大学教育的人成了优秀作家”和“优秀作家都是敏感而富有想象力的人”可以推出有些未受过大学教育的作家敏感而富有想象力，换位推理可得 D 项正确。

84.【答案】D

【解析】本题考查削弱型。题干由青年人看流行乐和京剧表演时的不同态度，得出结论“流行乐把京剧彻底赶出了音乐舞台”。D 项指出在 80 年代，中老年人对京剧的爱好开始复苏，表明京剧并没有被赶出音乐舞台，直接削弱了结论。其他几项都不能对论证进行削弱。故答案选 D。

85.【答案】C

【解析】本题考查削弱型。题干由“人体内过多的磷酸盐会阻碍人体对钙的吸收”得出“喝碳酸饮料会对骨骼健康造成隐患”的结论。A、B 两项直接削弱了论据，D 项也能在一定程度上减弱这些人的担心。C 项说明碳酸饮料会“刺激肠胃”，不能减弱人们的担心。故答案选 C。

86.【答案】B

【解析】本题考查削弱型。题干网友根据部分商品的价格对比得出“中国物价比美国高”的结论。A 项加强了该结论；B 项说明不能由部分商品的价格对比得出结论，从而削弱了题干；C 项公共交通也只是物价的一个方面，对题干的削弱有限；D 项指出了中国物价比美国高的原因，支持了结论。故答案选 B。

87.【答案】C

【解析】本题考查削弱型。题干结论是“北宋的瓷枕一定是专门给死者枕的冥器”。如果 C 项为真，则说明有些北宋瓷枕不是冥器，直接削弱了题干的结论。A 项只能说明瓷枕也可能是器具，削弱程度有限；B 项司马光用硬枕不代表瓷枕会被活人使用，不能削弱；D 项描述的是金代的瓷枕，而题干说的是北宋的瓷枕，是无关项。答案选 C。

88.【答案】C

【解析】本题考查加强型。专家的断言是：转基因食品是安全的，可放心食用。A 项无需使用含有致癌物质的除草剂、B 项从未发生过安全性事故、D 项杂交育种产生的作物是安全的且实质上也是转基因均加强了专家的断言，C 项“普通水稻的害虫食用转基因水稻后会中毒”说明转基因作物有毒，不能支持专家断言。故答案选 C。

89.【答案】B

【解析】本题考查加强型。题干由石家庄的小汽车平均价格较低，推出在石家庄购买小汽车可能得到更好的价格。假如两地所卖的汽车档次不同，则平均价格的差异可能是由档次的差别而不是由地域的差别造成的，题干的结论也就不能成立，B 项是必须假设的。平均价格本身就能反映一个地域的价格趋势，A 项不必假设；平均价格与数量无关，C 项也错误；作者的结论是根据两地的平均价格得出，因此不需要再假设 D 项。故答案选 B。

90.【答案】D

【解析】本题考查翻译推理型。由“凡是购买地方债券的员工都买了国债”和“所有购买股票的员工都不买国债”可以推出，所有购买股票的员工都没有购买地方债券，又由“有些购买基金的员工买了股票”可推出，有些购买基金的员工没有购买地方债券，D 项正确。A、B、C 三项都无法推出。故答案选 D。

91.【答案】B

【解析】本题考查最值问题。当第二天新增的人数全都投票“通过电视广告”项时，投票总人数会最少。设第二天新增人数为 x，则 500×68%+x=(500+x)×72%，$x=\frac{20}{28\%}=\frac{500}{7}$，则新增人数应大于 71。因为（500+x）×72%=（500+x）×$\frac{18}{25}$的结果仍然是整数（投该选项的人数必须是整数），500 是 25 的倍数，故 x 应是 25 的倍数，结合前面的计算结果可知 x 至少为 75，总人数至少是 500+75=575 人。因此答案为 B。

92.【答案】A

【解析】本题考查整除问题。$12\%=\frac{3}{25}$,$12.5\%=\frac{1}{8}$,要使参加比赛的男、女员工为整数，则该单位男员工的人数为 25 的倍数，排除 B、C 两项；女员工的人数为 8 的倍数，如果 A 项正确，则女员工人数为 185－25＝160，是 8 的倍数，符合条件；如果 D 项正确，女员工人数为 185－125＝60，不是 8 的倍数，舍去。因此答案为 A。

93.【答案】 C

【解析】本题考查不定方程问题。设小王、小张和小李三个人体重分别为 x、y、z，则

$\begin{cases}\dfrac{x}{y+z}=\dfrac{1}{5}\\ \dfrac{y}{x+z}=\dfrac{1}{2}\end{cases}$，解得$\dfrac{x}{y}=\dfrac{1}{2}$。

因此答案为 C。

94.【答案】A

【解析】本题考查不定方程问题。设甲、乙、丙商品的价格分别为 x，y，z 元，则有：

18x+l0y+2z=196……11

13x+7y+z=126……22

用（11×3-22×4）÷2 推出 x+y+z＝42（元）。因此答案为 A。

95.

【答案】D

【解析】本题考查年龄问题。设这七人年龄从小到大排列为 ABCDEFG，因为他们出生年份连续，所以这七个数是公差为 1 的等差数列。ABC 三人年龄和为 42，则根据中位数可知 B 年龄为 42÷3=14，D 的年龄为 16，最年长四人 DEFG 的年龄和为 16×7－42=70。因此答案为 D。

96.【答案】A

【解析】本题考查数字性质问题。n 是 15 的倍数，所以 n 是 3 的倍数和 5 的倍数。n 的末位只能是 0，而能被 3 整除要求至少有 3 个 8 使各位数字之和是 3 的倍数。因此 n 最小为 8880，8880÷15=592。因此答案为 A。

97.【答案】B

【解析】本题考查行程问题。速度降低 20%后，用时 100 秒，则火车为正常速度时，需要用时 100×（1－20%）＝80 秒；同理，正常速度通过隧道需要 120×(1+25%)=150 秒。则火车的正常速度是(4200－2100)÷(150－80)=30 米／秒，则火车的长度是 30×80－2100=300 米。因此答案为 B。

98.【答案】C

【解析】本题考查行程问题。甲、乙两人第一次相遇花了 600÷(9+6)=40 秒，第一次到第二次相遇之间的路程和为 2 个 AB 全程，速度和为第一次相遇的 2 倍，花了 600×2÷(9×2＋6×2)=40 秒，以后每次相遇的路程和均为 2 个 AB 全程，速度和为前一次相遇的 2 倍，因此相遇时间为前一次相遇时间的一半，117=40＋40＋20＋10＋5＋2，最后的 2 秒小于 5÷2=2.5，两人并没有相遇，因此相遇次数应该为 5 次。因此答案为 C。

99.【答案】B

【解析】本题考查工程问题。原计划 1 天完成$\dfrac{1}{2}\div18=\dfrac{1}{36}$，，工作效率提高后 1 天可完成$\dfrac{1}{36}\times(1+\dfrac{1}{8})=\dfrac{1}{32}$。按最初工作效率工作 3 天后完成$\dfrac{1}{36}\times3=\dfrac{1}{12}$，剩下的$\dfrac{1}{3}-\dfrac{1}{12}=\dfrac{1}{4}$以提高后的效率要用$\dfrac{1}{4}\div\dfrac{1}{32}=8$天完成。因此，共需 3+8＝11 天。

速解：工作效率在$\frac{1}{36}$~$\frac{1}{32}$之间，则完成这批零件的$\frac{1}{3}$所用时间在$\frac{1}{3}\div\frac{1}{32}$~$\frac{1}{3}\div\frac{1}{36}$天之间，即 10.67~12 天。结合选项可知选 B。因此答案为 B。

100.【答案】A

【解析】本题考查一般方程问题。假设桃树有 x 棵，则梨树有 2x+12 棵，核桃树有 x-9 棵，则有：x+2x+12+x-9=263，解得 x=65，则梨树有 142 棵，核桃数有 56 棵。因此答案为 A。

101.【答案】B

【解析】本题考查利润问题。A 和 B 产品的销售额都增长 25%,C 产品销售额增长$\frac{1}{6}$，根据十字交叉法可得到上年这三种产品销售额的比例。

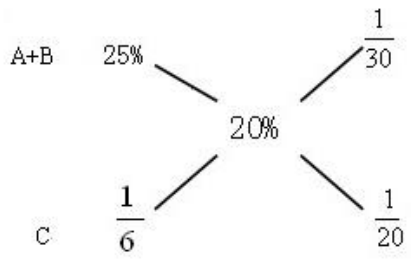

因此 2012 年 A+B 与 C 的销售额之比为$\frac{1}{30}:\frac{1}{20}=2:3$。2012 年的销售额是 6÷（1+20%）＝5 亿，则 C 产品占到 3 亿元，2013 年 A 产品销售额是 1 亿元。2012 年 A 产品销售额为 1÷(1+25%)=0.8 亿元，则当年 B 产品销售额是 2－0.8＝1.2 亿。因此答案为 B。

102.【答案】B

【解析】本题考查容斥问题。游客去了 AB 之中至少一个景点，所以没有去 A 的就是只去了 B 的游客，那么设只去 A 的是 x 只去 B 的也是 x，只去一个景点的是 2x。所以 x+x=3y，y=x。总人数：x+x+x=x，所以只去一个景点和总人数之比是 3:4。因此答案为 B。

103.【答案】D

【解析】本题考查排列组合问题。用插板法把 6 张票分为 4 组有$C_5^3=10$种方法，其中有三个连续号码为一组的不符题意，123，234，345，456 共四种组合不合题意。把分好组的票分给每个人，有$A_4^4=24$种分法，不同的分法有$(C_5^3-4)\times A_4^4=144$种分法。因此答案为 D。

104.【答案】B

【解析】本题考查平面几何问题。

设 $S_{\triangle ADO}=S_1$，则 $S_{\triangle DOC}=5S_1$；同理 $S_{\triangle AOB}=2S_1$，$S_{\triangle OCB}=5S_{\triangle AOB}=10S_1$。阴影部分面积为 $S_{\triangle ADO}+S_{\triangle OCB}=11S_1$，$S_1=2$。四边形 ABCD 面积为 $S_1+5S_1+2S_1+10S_1=18S_1=36$ 平方厘米。因此答案为 B。

105.【答案】C

【解析】本题考查益智问题。这相当于将一个椭球面用 3 个平面分割成几个曲面的问题，如下图所示的切法，中间的一块哈密瓜会有 2 块瓜皮，最多有 8 块瓜皮。因此答案为 C。

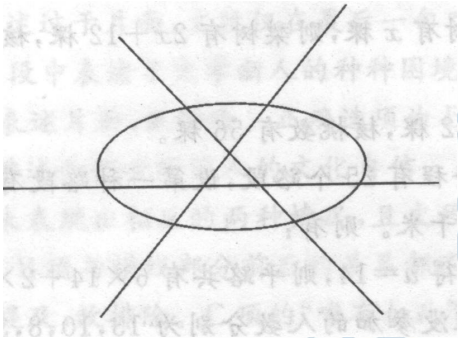

106.【答案】C

【解析】：本题考查直接计算问题。2012 年安徽省规模以上高新技术产业实现增加值为 $\frac{2142.7}{1+24.6\%}$ 亿元，占全省 GDP 的比重为 14.2% － 1%=13.2%，则所求为 $\frac{2142.7}{1+24.6\%}\div 13.2\%\approx\frac{2140}{(1+25\%)\times\frac{1}{8}}=17120\times\frac{4}{5}=13696$ 亿元，最接近的是 C 项，因此答案为 C。

107.【答案】B

【解析】：本题考查直接计算问题。2013 年，安徽省规模以上高新技术产业实现增加值 2142.7 亿元，其中实现增加值最多的是光机电领域，为 949.2 亿元，最少的是高新技术服务业，为 39.9 亿元，则所求为 $\frac{949.2-39.9}{2142.7}=\frac{909.3}{2142.7}\approx\frac{900}{2000}=45\%$，即约多 45 个百分点，因此答案为 B。

108.

【答案】A

【解析】：本题考查直接计算问题。2013 年，合芜蚌自主创新试验区规模以上高新技术产业实现产值 5284.4 亿元，比上年增长 45.4%，则所求为 $\frac{5284.4}{1+45.4\%}\times 45.4\%>\frac{5200}{1+\frac{4}{9}}=5200\times\frac{4}{13}=1600$ 亿元，因此答案为 A。

109.【答案】D

【解析】：本题考查直接计算问题。专利授予比例＝$\frac{专利授予量}{专利申请量}$，根据材料最后一段可知，2013 年安徽省专利申请总数为$\frac{14183}{29.2\%}$项，专利授权总数为$\frac{8807}{26.9\%}$项，则所求为$\frac{8807}{26.9\%}\div\frac{14183}{29.2\%}=\frac{8807}{14183}\times\frac{29.2\%}{26.9\%}>\frac{8800}{15000}=0.58x$，因此答案为 D。

110.【答案】C

【解析】：本题考查综合分析问题。A 项，所求为$\frac{21427}{1+24.6\%}<\frac{2400}{1.2}=2000$亿元，错误；

B 项，根据材料知道合芜蚌自主创新试验区规模以上高新技术产业实现增加值 1324.7 亿元、安徽省规模以上高新技术产业实现增加值 2142.7 亿元，则所占比重为 1324.7÷2142.7>50%，错误。C 项，所求为$\frac{551}{73}<\frac{576}{72}=8$倍且$\frac{551}{73}>\frac{525}{75}=7$倍，正确；直接选择$C$项。验证 D 项：平均实现产值为$\frac{6163.7}{1335}<\frac{6675}{1335}=5$亿元，错误。因此答案为 C。

111.【答案】B

【解析】：本题考查直接计算问题。根据文字第二句可知，第一产业实现增加值 1029.4 亿元，增长 2.1%。则所求为$\frac{1029.4}{1+2.1\%}\times2.1\%\approx\frac{1021}{1.021}\times2.1\%=1000\times2.1\%=21$亿元，由估算过程可知，结果略大于 21 亿元，因此答案为 B；

112.

【答案】C

【解析】：本题考查直接计算问题。根据文字第一句，2013 年 1-3 季度浙江省实现地区生产总值 24214.9 亿元，同比增长 7.7%。根据图形可知温州市生产总值为 2470.2 亿元，同比增长 5.7%。温州市的同比增速小于浙江省，所占比重比上年同期下降，排除 B、D。下降了

$$\frac{2470.2\div(1+5.7\%)}{24214.9\div(1+7.7\%)}-\frac{2470.2}{24214.9}=\frac{2470.2}{24214.9}\times\frac{1+7.7\%}{1+5.7\%}-\frac{2470.2}{24214.9}=\frac{2470.2}{24214.9}\times\frac{2\%}{1+5.7\%}\approx0.1\times2\%=0.2\%$$

，即下降了 0.2 个百分点。因此答案为 C。

113.【答案】A

【解析】：本题考查直接计算问题。根据图形可知，2013 年 1~3 季度杭州市的生产总值为 5502.3 亿元，衢州市为 670.9 亿元，丽水市为 583.4 亿元，则所求为 5502.3÷(670.9+583.4)≈5500÷1250=5.5÷1.25=5.5×0.8=4.4 倍。因此答案为 A。

114.【答案】C

【解析】：本题考查大小比较问题。2012 年 1~3 季度实现生产总值＝$\frac{2012年1\sim3季度生产总值}{1+同比增速}$，则 2012 年 1~3 季度湖州市实现生产总值为$\frac{1153.9}{1+9.3\%}$，衢州市为$\frac{670.9}{1+7.9\%}$，舟山市为$\frac{560.8}{1+9.8\%}$，丽水市为$\frac{583.4}{1+9.7\%}$，观察四个分数可知，$\frac{560.8}{1+9.8\%}$分子最小，

分母最大，根据分子分母比较法，$\frac{560.8}{1+9.8\%}$最小，因此答案为 C。

115.【答案】C

【解析】：本题考查综合分析问题。A 项，由文字第一句可知，2013 年 1~3 季度，浙江省生产总值比上年同期增长 7.7%，增速比 1~2 季度加快 0.3 个百分点，所以 2013 年 1~2 季度同比增速应为 7.7%-0.3%=7.4%，A 错误；

B 项，根据文字可知，2013 年 1~3 季度，浙江省生产总值同比增长 7.7%，第三产业增加值同比增长 9.2%，快于生产总值，所以占比与上年同期相比应上升，B 错误；

C 项，2012 年 1~3 季度，宁波市实现生产总值为$\frac{4587.6}{1+7.2\%}$亿元，计算精度较高，先跳过；

D 项，2013 年 1~3 季度，金华市实现生产总值 1919.7 亿元，杭州市为 5502.3 亿元，$\frac{1919.7}{5502.3}>\frac{19}{57}=\frac{1}{3}$，D 错误。

排除了 A、B、D 项，因此答案为 C。

116.【答案】B

【解析】：本题考查直接计算问题。由表 1 可知，2013 年 1—6 月完成销售产值 391866177 万元，同比增长 11.1%，则比上年同期多 391866177 ×$\frac{11.1\%}{1+11.1\%}\approx 391866177\times\frac{\frac{1}{9}}{1+\frac{1}{9}}=391866177\times\frac{1}{10}=39186617.7$万元≈3919 亿元，与 B 最接近，因此答案为 B。

117.【答案】A

【解析】：本题考查数据查找与分析问题。出口交货值占销售产值的比重超过 50%，相当于出口交货值×2＞销售产值，观察表 1 的第二、四列，可估算得通信设备制造业、电子计算机制造业、电子器件制造业 3 个行业满足条件，因此答案为 A。

118.【答案】D。

【解析】：本题考查数据查找与分析问题。一共 11 个行业，排在第九位，即倒数第三位。将 2013 年 1-6 月的利润总额和税金总额相加，易知雷达制造业最少，倒数第一；广播电视设备制造业为 231211+72383＜320000 万元，小于剩下行业的利润总额，排倒数第二，排除 B 项。

其他电子信息行业的利润及税金总额均大于电子测量仪器和电子专用设备制造业，排除 A 项。又可知测量仪器利润总额远大于电子专用设备，税金总额与电子专用设备相当，所以利税总额前者大于后者，排除 C 项，因此答案为 D。

119.【答案】C

【解析】：本题考查直接计算问题。所求为

$$\frac{30380051}{1+5.3\%}\div\frac{1261202}{1+13.5\%}=\frac{30380051}{1261202}\times\frac{1+13.5\%}{1+5.3\%}\approx\frac{3000}{125}$$

$\times(1+\frac{8.2\%}{1+5.3\%})\approx 24\times(1+8\%)=25.92\approx 26$ 倍。因此答案为 C。

120.【答案】B

【解析】：本题考查综合分析问题。A 项，由表 1 可知，2013 年 1~6 月家用视听设备制造业完成销售产值同比增长 4.4%，全行业增长 11.1%，低 11.1－4.4＝6.7 个百分点，正确；

B 项，2012 年 1~6 月电子专用设备制造业完成出口交货值 3960915÷(1＋1.4%)＞3960915×(1－1.4%)＞3960000×(1－2%)＞3960000－80000＝3880000 万元＝388 亿元，B 错误：可直接选 B。验证 C 项、D 项：

C 项，由表 2 可知，2013 年 1~6 月电子元件制造业利润总额同比增速低于主营业务收入，所以利润总额占主营业务收入的比重下降，正确；

D 项，由表 2 可知，2013 年 1~6 月，通信设备制造业完成税金总额最高，其同比增速只高于其他电子信息行业，因此只需比较通信设备制造业与其他电子信息行业即可。通信设备制造业 1365017÷(1＋5.2%)＞1000000，其他电子信息行业 472685÷(1－19.2%)＜480000×2=960000，前者大于后者，正确。因此答案为 B。